اسم الطالب : .....
الصف الثاني شعبة .....

مدرسة حماية للبنين Hemaya School for Boys شرطة دبي DUBAI POLICE

المـــادة : العلـــــــــــوم
التاريخ : 11 / 11 / 2019

اختبار التقويم الثاني للفصل الدراسي الأول للعام الدراسي 2019 / 2020 م

السؤال الأول : ضع دائرة حول الإجابة الصحيحة . (10 درجات)

35

1- ماذا ينمو على جسم الطائر عندما يبلغ عمره 3 أسابيع ؟

A- شَعْر B- قُشور C- ريش D- زَغَب

2- ما الذي يساعد الخُنْفُساء على البقاء في مأمن من أعدائها ؟

A- الجناحين B- القشرة الخارجية C- قرون الاستشعار D- الأرجل



3- ماذا يسمى الضفدع الصغير الذي يَفْقِس من البيض ؟

A- الحُرشُوف B- السُرعُوف C- الشُرغُوف D- أبو زبيبة

4- مجموعة الحيوانات التي تنتج إناثها الحليب لتغذية صغارها هي مجموعة :

A- الطيور B- الثديات C- البرمائيات D- الزواحف

5- كيف يُحافظ حيوان الزُّغبة على سلامته في فصل الشتاء ؟



A- يهاجر إلى الشمال B- يغير لون شعره

C- يدخل في مرحلة سُبات D- يختبئ داخل قوقعة

6- يُصَنِف العلماء الحيوانات إلى مجموعتين وفقاً لـ :

A- وجود أو عدم وجود أرجل B- وجود أو عدم وجود ريش

C- وجود أو عدم وجود حراشف D- وجود أو عدم وجود عمود فقري

7- في أي اتجاه تُهاجر طيور الكُرْكِي في فصل الشتاء ؟

A- شرقاً B- شمالاً C- جنوباً D- غرباً



8- أي من الصور التالية صورة لحيوان برمائي ؟

A-  B-  C-  D- 

9- أي من الصور التالية صورة لحيوان فقاري ؟

A-  B-  C-  D- 

10- أي حيوان مما يلي لا ينتمي لمجموعة الحيوانات الأخرى ؟

A-  B-  C-  D- 

السؤال الثاني : استخدم الكلمات التالية لتكمل العبارات التي بالأسفل منها : (3 درجات)

التكيف ـ التمويه ـ الصفة الوراثية

1- مظهر الحيوانات أو سلوكها التي تنتقل إليها من أبويها تسمى .....

2- امتزاج الحيوان بالبيئة المحيطة بحيث يكون تمييز وجوده صعب جداً يسمى .....

3- تغير أحد أجزاء جسم الحيوان أو طريقة تصرفه مما يساعده في البقاء على قيد الحياة يسمى .....

السؤال الثالث : الصور التالية تمثل مراحل حياة الثعلب، رتب هذه الصور : (4 درجات)


(.....)


(.....)


(.....)


(.....)

السؤال الرابع : الصور التالية تمثل مراحل حياة الضفدع، رتب هذه الصور : (5 درجات)


(.....)


(.....)


(.....)


(.....)


(.....)

السؤال الخامس : ضع علامة (✓) أمام العبارة الصحيحة وعلامة (✗) أمام العبار الخطأ : (5 درجات)

1- الطيور هي الحيوانات الوحيدة التي تفقس من البيض. (.....)

2- عدد الحيوانات اللافقارية أكثر من عدد الحيوانات الفقارية. (.....)

3- يمتلك قنديل البحر دروعاً صلبة يلسع بها الحيوانات الأخرى. (.....)

4- المدة التي يقضيها الحيوان من ولادته إلى مماته تسمى دورة الحياة. (.....)

5- كل الحيوانات الفقارية تتنفس في صغرها بالرئتين ما عدا الأسماك تتنفس بالخياشيم. (.....)

السؤال السادس : وصل صورة الحيوان بالطريقة التي يستخدمها في البقاء على قيد الحياة. (8 درجات)

















①	تغير اللون خلال فصول السنة	①
②	رقبة طويلة ليصل لقمم الأشجار	②
③	الاختباء داخل القوقعة	③
④	خروج سائل ذا رائحة كريهة	④
⑤	الانتقال إلى مكان دافئ	⑤
⑥	وجود خرطوم طويل	⑥
⑦	عيون كبيرة للرؤية في الليل	⑦
⑧	البقاء ضمن جماعات	⑧

(انتهت الأسئلة)

اسم الطالب : .....
الصف الثاني شعبة .....

مدرسة حماية للبنين Hemaya School for Boys شرطة دبي DUBAI POLICE

المـــادة : العلـــــــــــوم
التاريخ : 11 / 11 / 2019

إجابة اختبار التقويم الثاني للفصل الدراسي الأول للعام الدراسي 2019 / 2020 م

35

السؤال الأول : ضع دائرة حول الإجابة الصحيحة . (10 درجات)

1- ماذا ينمو على جسم الطائر عندما يبلغ عمره 3 أسابيع ؟

A- شَعْر B- قُشور C- ريش D- **زَغَب**

2- ما الذي يساعد الخُنْفُساء على البقاء في مأمن من أعدائها ؟

A- الجناحين B- **القشرة الخارجية** C- قرون الاستشعار D- الأرجل



3- ماذا يسمى الضفدع الصغير الذي يَفْقِس من البيض ؟

A- الحُرشُوف B- السُرعُوف C- **الشُرغُوف** D- أبو زبيبة

4- مجموعة الحيوانات التي تنتج إناثها الحليب لتغذية صغارها هي مجموعة :

A- الطيور B- **الثديات** C- البرمائيات D- الزواحف

5- كيف يُحافظ حيوان الزُّغبة على سلامته في فصل الشتاء ؟



A- يهاجر إلى الشمال B- يغير لون شعره

C- **يدخل في مرحلة سُبات** D- يختبئ داخل قوقعة

6- يُصَنِف العلماء الحيوانات إلى مجموعتين وفقاً لـ :

A- وجود أو عدم وجود أرجل B- وجود أو عدم وجود ريش

C- وجود أو عدم وجود حراشف D- **وجود أو عدم وجود عمود فقري**



7- في أي اتجاه تُهاجر طيور الكُرْكِي في فصل الشتاء ؟

A- شرقاً B- شمالاً C- **جنوباً** D- غرباً

8- أي من الصور التالية صورة لحيوان برمائي ؟

A-  B-  C-  D- 

9- أي من الصور التالية صورة لحيوان فقاري ؟

A-  B-  C-  D- 

10- أي حيوان مما يلي لا ينتمي لمجموعة الحيوانات الأخرى ؟

A-  B-  C-  D- 

السؤال الثاني : استخدم الكلمات التالية لتكمل العبارات التي بالأسفل منها : (3 درجات)

التكيف ـ التمويه ـ الصفة الوراثية

1- مظهر الحيوانات أو سلوكها التي تنتقل إليها من أبويها تسمى **الصفة الوراثية**.

2- امتزاج الحيوان بالبيئة المحيطة بحيث يكون تمييز وجوده صعب جداً يسمى **التمويه**.

3- تغير أحد أجزاء جسم الحيوان أو طريقة تصرفه مما يساعده في البقاء على قيد الحياة يسمى **التكيف**.

السؤال الثالث : الصور التالية تمثل مراحل حياة الثعلب، رتب هذه الصور : (4 درجات)


(1)


(3)


(2)


(4)

السؤال الرابع : الصور التالية تمثل مراحل حياة الضفدع، رتب هذه الصور : (5 درجات)


(3)


(1)


(4)


(5)


(2)

السؤال الخامس : ضع علامة (✓) أمام العبارة الصحيحة وعلامة (×) أمام العبار الخطأ : (5 درجات)

1- الطيور هي الحيوانات الوحيدة التي تفقس من البيض. (×)
2- عدد الحيوانات اللافقارية أكثر من عدد الحيوانات الفقارية. (✓)
3- يمتلك قنديل البحر دروعاً صلبة يلسع بها الحيوانات الأخرى. (×)
4- المدة التي يقضيها الحيوان من ولادته إلى مماته تسمى دورة الحياة. (×)
5- كل الحيوانات الفقارية تتنفس في صغرها بالرئتين ما عدا الأسماك تتنفس بالخياشيم. (×)

السؤال السادس : وصل صورة الحيوان بالطريقة التي يستخدمها في البقاء على قيد الحياة. (8 درجات)









1	تغير اللون خلال فصول السنة	1
2	رقبة طويلة ليصل لقمم الأشجار	2
3	الاختباء داخل القوقعة	3
4	خروج سائل ذا رائحة كريهة	4
5	الانتقال إلى مكان دافئ	5
6	وجود خرطوم طويل	6
7	عيون كبيرة للرؤية في الليل	7
8	البقاء ضمن جماعات	8









(انتهت الأسئلة)