

نموذج اختبار ١

السؤال الاول:-

١ -أكمل:-

☺ ..... > ٦ ☺ ٣<.....

☺ خمسة=..... ☺ ٥ > .....

☺ سبعة أصغر من .....

☺ ثلاثة أكبر من.....

٢ -كون مجموعات:-





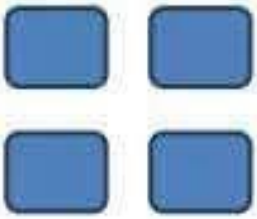

٣ -عد ثم أكتب بالارقام:-





....

٤ -اكتب بالرقام :-

خمسة = ... تسعة = ...



٥- صل المجموعات المتساوية:-

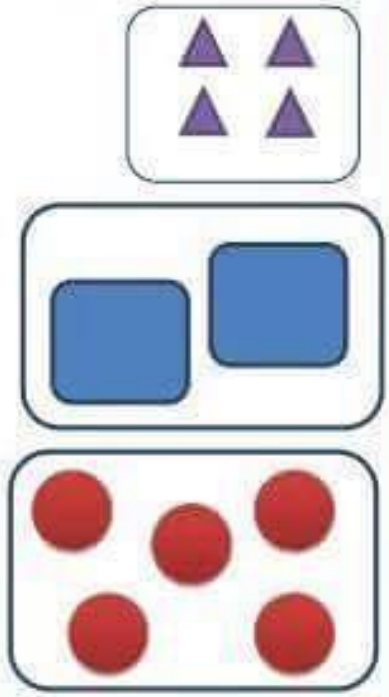



السؤال الثاني:-

١ كون مجموعة من الاولاد الطوال:-





٢ ضع علامة (✓) أو (✗):-

☺ الرقم التالي لرقم واحد هو صفر ( )

☺ الرقم السابق لرقم ٤ هو ٣ ( )

☺  = ٢ ( )

☺ ثلاثة = ٨ ( )



٣ رتب تصاعديا:-

٢ ، ٧ ، ١ ، ٥ ، ٣ ، ٨

..... ، ..... ، ..... ، ..... ، ..... ، ..... ، .....

٤ اكتب الكسر الذى يعبر عن الجزء المظلل:-

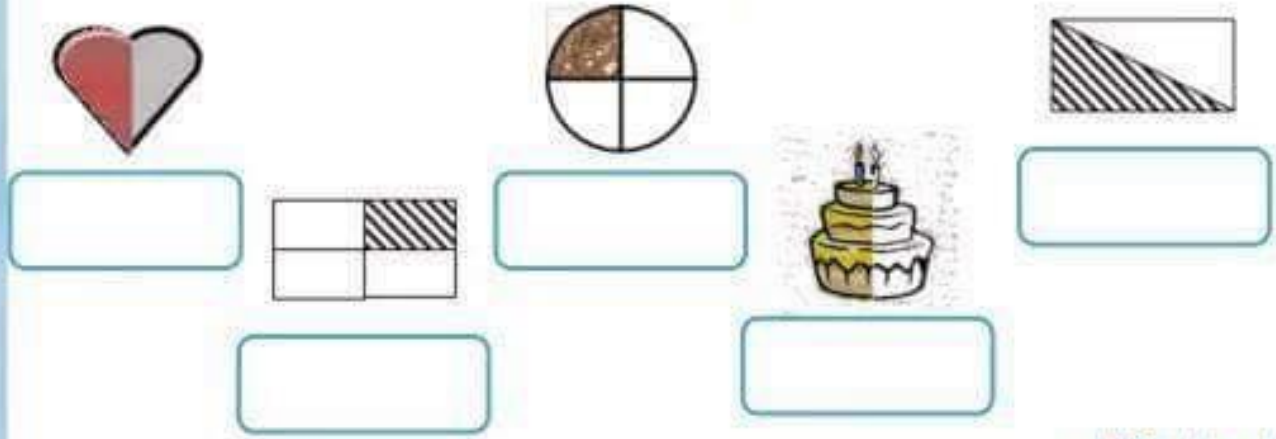

السؤال الثالث:-

١ ارسم حتى تتساوى المجموعات:-



٢ ضع علامة (✓) أسفل الجزء المقسوم الى نصفين:-



(.....) (.....) (.....)



٣ -أكمل باستخدام أكثر من أو أقل من أو يساوى:-





مجموعة المثلثات ..... مجموعة الدوائر

السؤال الرابع :-

١ -كون مجموعات من أربعة زهور :-



كم مجموعة لديك؟

..... مجموعات

٢ ضع علامة > أو < أو =:-

-  ☐ 
- ٨ ☐ ٩
-  ☐ 

٣ ضع دائره حول أصغر رقم :-

ستة	واحد	ثلاثة
تسعة	خمسة	ثمانية



٤ أكمل بنفس التسلسل :-

- ٣ ، ٢ ، ..... ، .....
- ٨ ، ٦ ، ..... ، ٢
- ١ ، ٣ ، ..... ، ٧ ، .....
- ٤ ، ٥ ، ..... ، ..... ، .....

السؤال الخامس:-

١ صـــل:-





هل المجموعتين متساويتان؟

نعم ☐ لا ☐

٢ رتب تنازليا :-

- تسعة ، ٨ ، ١ ، ٥ ، ٦

..... ، ..... ، ..... ، ..... ، .....







٣ ضع علامة> أو < أو =:-

☺ $\frac{١}{٢}$	☐	$\frac{١}{٤}$
☺ النصف	☐	$\frac{١}{٢}$
☺ 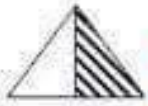	☐	
☺ النصف	☐	الربع

٤ أكتب بالحروف:-

☺ ٣ = ... ☺ ٥ = ...

☺ ١ = ... ☺ ٨ = ...

٥ أختر الإجابة الصحيحة:

البداية







أ – ترتيب  هو ..... (الأول – الثالث – السادس)

ب- ترتيب  هو ..... (الرابع – الأول – الثالث)

ج- ترتيب  هو ..... (الثاني – الخامس – الأول)

د- ترتيب  هو ..... (الخامس – الثاني – الأول)

و- ترتيب  هو ..... (الثالث – الثاني – الثامن)







نموذج اختبار ٢

السؤال الأول :

١ -كون مجموعات :



٢ -رتب تصاعديا :

٣ ، ٢ ، واحد ، ٧ ، ٥

..... ، ..... ، ..... ، ..... ، .....

السؤال الثاني :

١ -اكتب الكسر الذي يعبر عن الجزء المظلل :



.....



.....

٢ -أكمل بنفس التسلسل :

أ - ١ ، ٢ ، ٣ ، ..... ، ..... ، ..... ، ..... ، .....

ب - ٩ ، ٧ ، ..... ، ..... ، .....







٣ ضع > ، < أو = :

أ- ثمانية ☐ ٣

ب- ٤ ☐ ٥

ج- النصف ☐ $\frac{١}{٢}$

د-  ☐ 

السؤال الثالث :

١ -أكمل :

أ- الرقم التالي لرقم ٦ هو .....

ب- الرقم السابق للرقم اثنان هو .....

ج- ٤ أكبر من .....

د- ..... < ٣

٢- صل المجموعات المتساوية :















السؤال الرابع :

١ -كون مجموعة من الكمثرى الكبيرة :

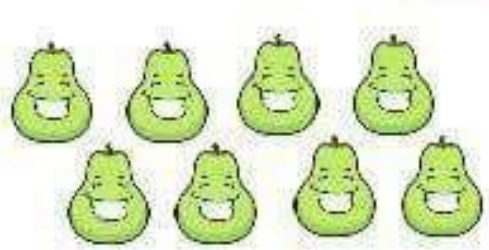

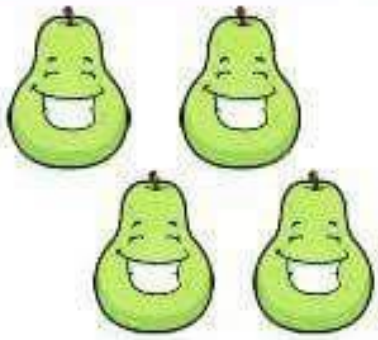

٢ -اختر الإجابة الصحيحة :



البداية

أ- ترتيب السيارة هو ..... (الأول – الثاني – الثالث)

ب- ترتيب  هو ..... (الخامس – الثالث – الأول)

ج- ترتيب ..... هو الأول ( -  - )

٣ -اكتب بالحروف :

٣ = ... ٥ = ...

١ = ... ٨ = ...



نموذج اختبار ٣

السؤال الأول:-

١ -رتب ترتيبا تنازليا:-

٥ ، ٢ ، ٩ ، ٦ ، ١

..... ، ..... ، ..... ، ..... ، .....

٢ -أكمل بنفس التسلسل :-

☺٣ ، ٤ ، ..... ، ..... ، ٧ ، .....

☺ ٠ ، ٢ ، ..... ، ..... ، .....

السؤال الثاني:-

١ -أكمل باستخدام أكثر من أو أقل من أو يساوى :-





مجموعه النجوم ..... مجموعة القلوب

٢ -ما العدد التالى :-

☺٥ ⟵ ..... ☺ ٨ ⟵ .....

☺صفر ⟵ ..... ☺ ٢ ⟵ .....



٣ -صل المجموعات المتساوية:-



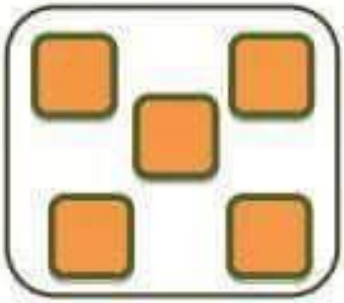




السؤال الثالث:-

١ -ضع علامة > أو < أو = :-





٢ ارسم حتى تتساوى المجموعات :-





٣ ضع دائره حول أكبر عدد :-

ستة		٧	صفر

السؤال الرابع:-

١ اكتب الكسر الذى الجزء المظلل :-





....

٢ اكتب بالحروف:-

☺٩ = ... ☺٣ = ...

☺٠ = ... ☺٥ = ...







٣ -اختار الاجابة الصحيحة :-

البداية



☺ ترتيب  هو ... ... (الثالث - الخامس – السابع)

☺ ترتيب ..... الرابع ( -  - )

☺ ترتيب  هو..... (الأول – السادس – السابع)

☺ ترتيب ..... هو الثاني ( -  - )

عد ثم اكتب بالحروف :-





....







نموذج إجابه الاختبار ١

السؤال الاول:-

أكمل:-

☺ ٦ < ٧ ٢ < ٣

☺ خمسة = ٥ ٥ > ٦

☺ سبعة أصغر من ثمانية

☺ ثلاثة أكبر من اثنان

كون مجموعات:-

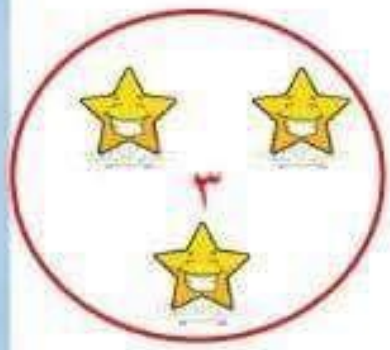

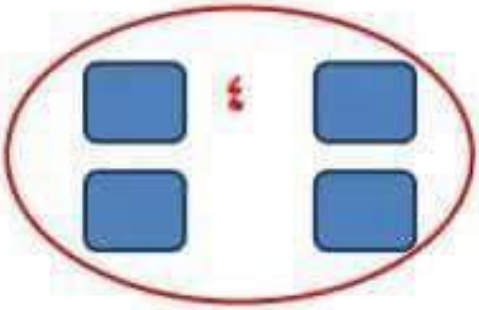



عد ثم أكتب العدد بالارقام :-



..... ٤ .....



..... ٢ .....

اكتب بالارقام :-

خمسة = ... ٥ .....

تسعة = ... ٩ .....



صل المجموعات المتساوية:-

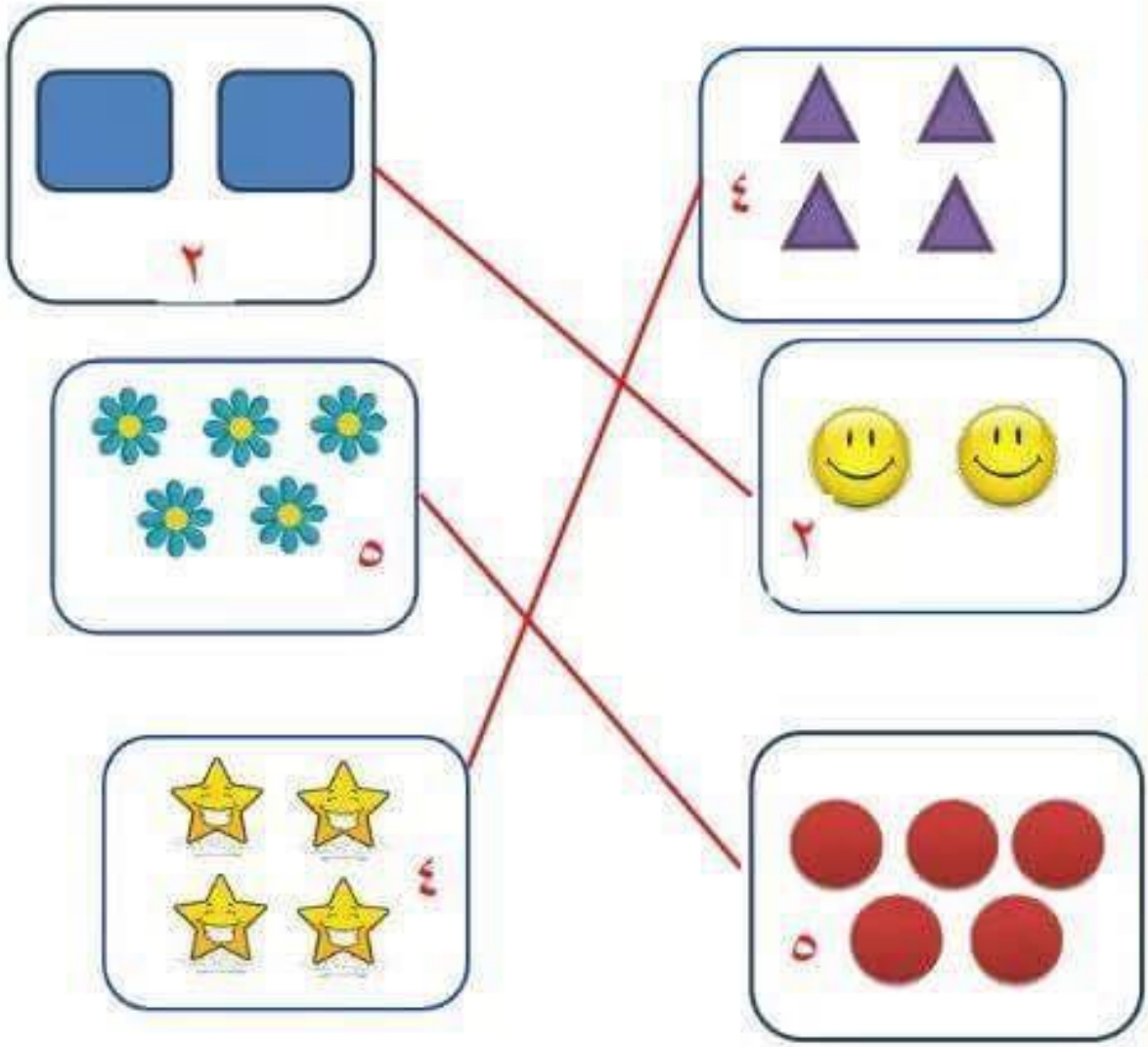



السؤال الثاني:-

كون مجموعة من الاولاد الطوال:-





ضع علامة (✓) أو (✗):-

☺الرقم التالي لرقم واحد هو صفر (✗)

☺ الرقم السابق لرقم ٤ هو ٣ (✓)

☺ ☆☆ = ٢ (✓)

☺ثلاثة = ٨ (✗)

رتب تصاعديا:-

☺ ٢ ، ٧ ، ١ ، ٥ ، ٣ ، ٨

١، ٢ ، ٣ ، ٥، ٧ ، ٨

اكتب الكسر الذى يعبر عن الجزء المظلل:-



النصف



الربع



النصف



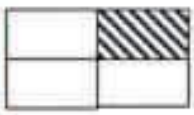

الربع

النصف



السؤال الثالث:-

ارسم حتى تتساوى المجموعات:-



ضع علامة (✓) أسفل الجزء المقسوم إلى نصفين:-



(..✓..) (.....) (..✓..)

أكمل باستخدام أكثر من أو أقل من أو يساوى:-



مجموعة الدوائر .....يساوي..... مجموعة المثلثات

السؤال الرابع :-

كون مجموعات من أربعة زهور :-

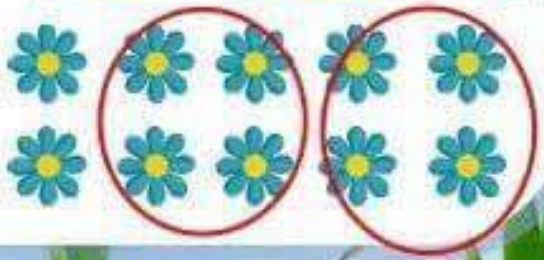

كم مجموعة لديك؟

.....٢..... مجموعات

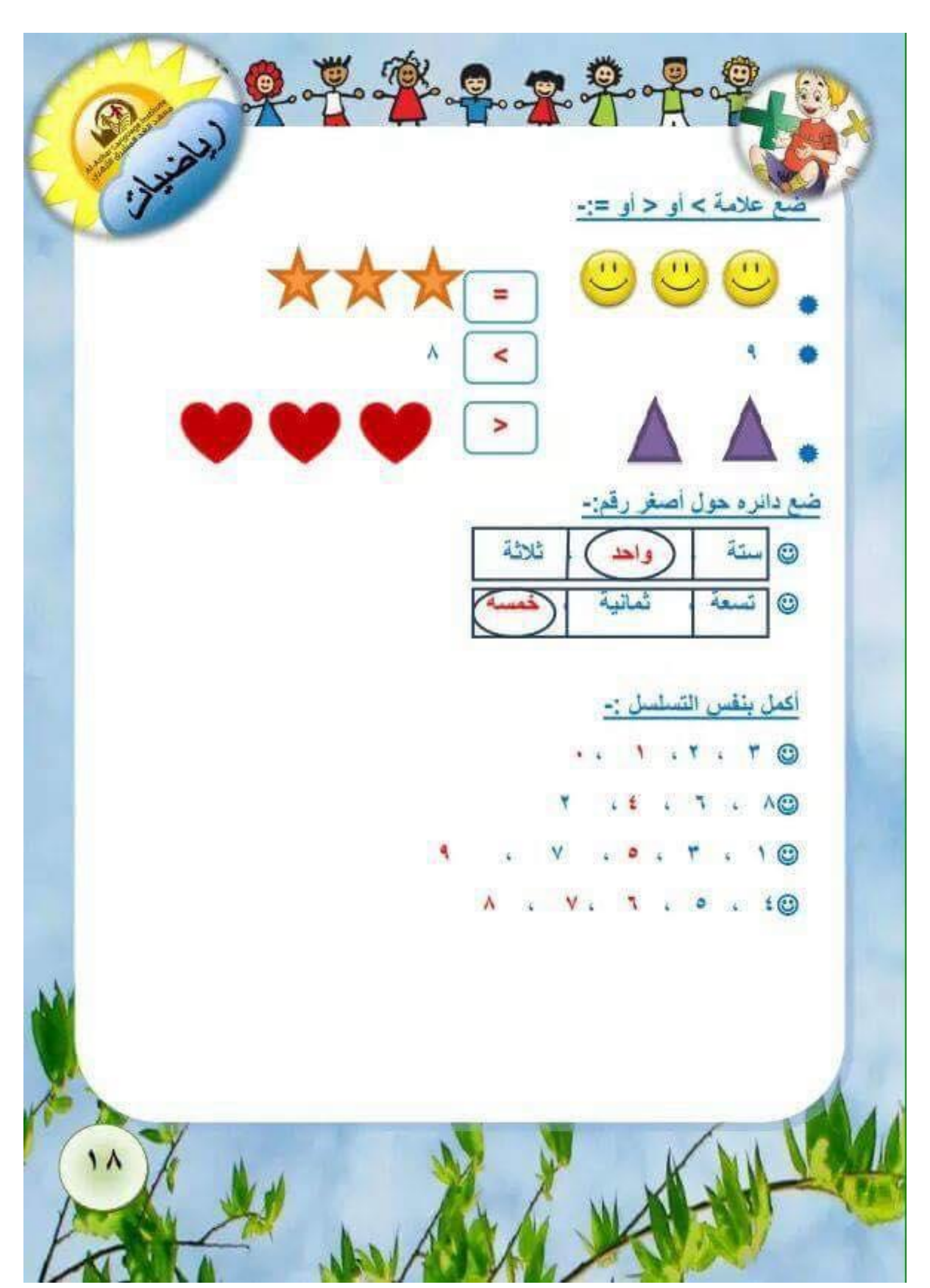

رياضيات

ضع علامة > أو < أو =:-

- ٩ = ٨
- < ٨
- >

ضع دائره حول أصغر رقم:-

ستة	واحد	ثلاثة
تسعة	ثمانية	خمسة

أكمل بنفس التسلسل :-

- ٣ ، ٢ ، ١ ، ٠
- ٨ ، ٦ ، ٤ ، ٢
- ١ ، ٣ ، ٥ ، ٧ ، ٩
- ٤ ، ٥ ، ٦ ، ٧ ، ٨



السؤال الخامس:-

صـــل:-

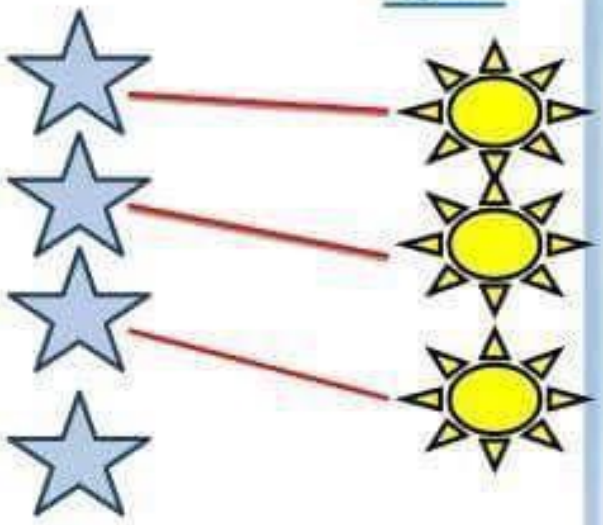

هل المجموعتان متساويتان ؟

نعم	لا
☐	✓

رتب تنازليا :-

☺ تسعة ، ٦ ، ١ ، ٥ ، ٣ ، ٨

تسعة،٨، ٦، ٥، ٣، ١

ضع علامة> أو < أو =:-

☺ $\frac{١}{٤}$ [>] $\frac{١}{٢}$

☺ النصف [=] $\frac{١}{٢}$

☺  [=] 

☺النصف [<] الربع



اكتب بالحروف:-

☺٣ = ثلاثة ☺ ٥ = خمسة

☺ ١ = واحد ☺ ٨ = ثمانية

اختر الاجابه الصحيحه :-



البداية ←

أ – ترتيب  هو ..... (الأول – **الثالث** – السادس)

ب- ترتيب  هو ..... (**الرابع** – الأول – الثالث)

ج- ترتيب  هو ..... (الثاني – الخامس – **الأول**)

د- ترتيب  هو ..... (**الخامس** – الثاني – الأول)

و- ترتيب  هو ..... (الثالث – **الثاني** – الثامن)







اجابات نموذج الاختبار ٢

السؤال الأول :

١- كون مجموعات :

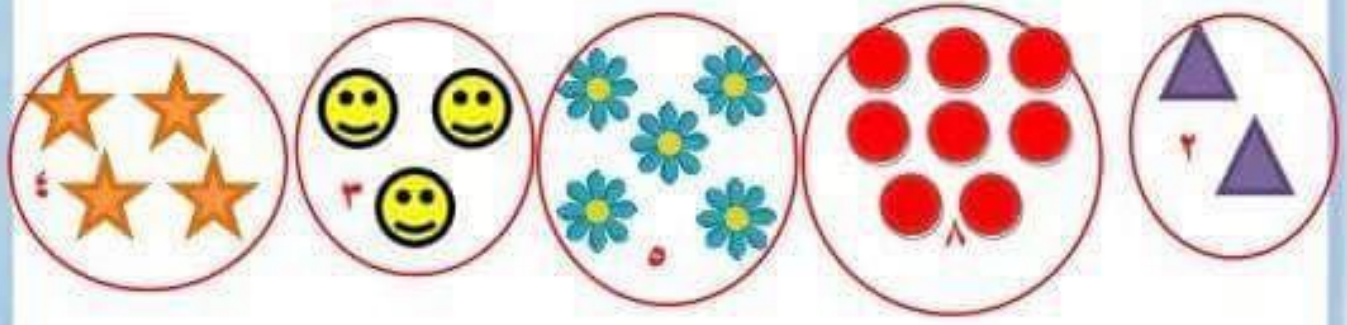

٢- رتب تصاعديا :

ص ← ك

٣ ، ٢ ، واحد ، ٧ ، ٥

واحد..... ، .....٢..... ، .....٣..... ، ٥ ..... ٧.....

السؤال الثاني :

١- اكتب الكسر الذي يمثل الجزء المظلل :



.....الربع أو ١/٤.....



.....النصف أو ١/٢.....



٢- ضع > ، < أو = :

أ- ثمانية [<] ٣

ب- ٤ [>] ٥

ج- النصف [=] $\frac{١}{٢}$

د- [>]

٣- أكمل بنفس التسلسل :

أ- ١ ، ٢ ، ٣ ، ...٤... ، ...٥... ، ...٦... ، ...٧... ، ...٨...

ب- ٩ ، ٧ ، ...٥... ، ...٣... ، ...١...

السؤال الثالث :

١- أكمل :

أ- الرقم التالي لرقم ٦ هو ...٧...

ب- الرقم السابق للرقم اثنان هو ...واحد...

ج- ٤ أكبر من ...٣...

د- ...٢... < ٣





٢- صل المجموعات المتساوية :

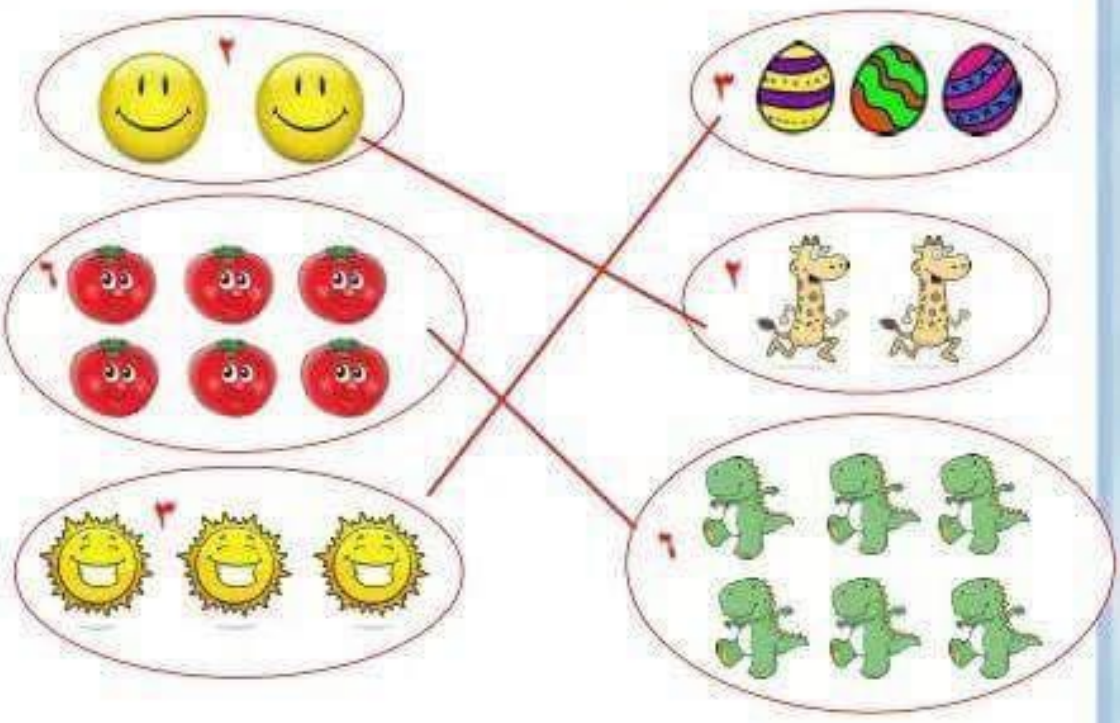

السؤال الرابع :

١- كون مجموعة من الكمثرى الكبيرة :

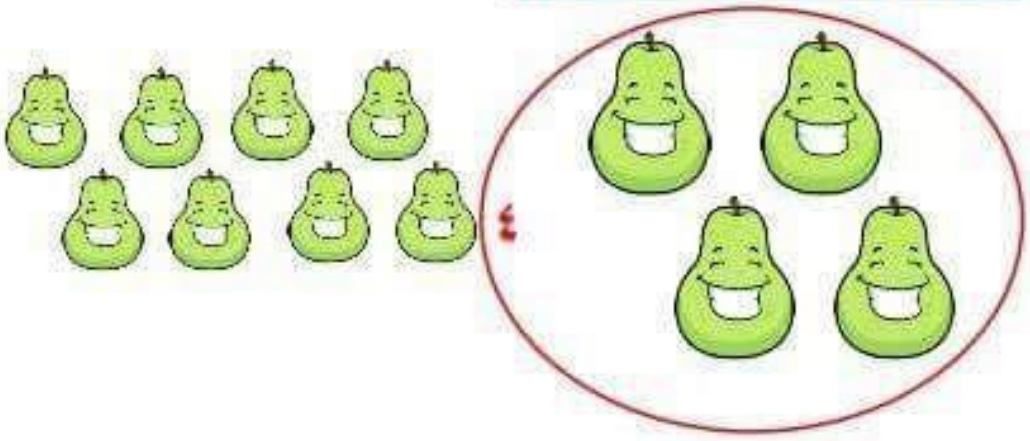



٢- اختر الإجابة الصحيحة :



البداية

أ- ترتيب السيارة هو ..... (الأول – الثاني – **الثالث**)

ب- ترتيب  هو ..... (**الخامس** – الثالث – الأول)

ج- ترتيب ..... هو الأول   )

٣- اكتب بالحروف :

٣ = ...**ثلاثة**.....

٥ = ...**خمسة**.....

١ = ...**واحد**.....

٨ = ...**ثمانية**.....



نموذج اجابه اختبار ٣

السؤال الأول:-

رتب تنازليا:-

٥ ، ٢ ، ٩ ، ٦ ، ١

٩ ، ٦ ، ٥ ، ٢ ، ١

أكمل بنفس التسلسل :-

☺٣ ، ٤ ، ٥ ، ٦ ، ٧ ، ٩

☺ ٠ ، ٢ ، ٤ ، ٦ ، ٨

السؤال الثاني:-

أكمل باستخدام أكثر من أو أقل من أو يساوى :-





مجموعه النجوم أكثر من مجموعة القلوب

ما العدد التالى :-

☺٥ ⟵ ٦ ☺٨ ⟵ ٩

☺صفر ⟵ واحد ☺٢ ⟵ ٣



صل المجموعات المتساوية:-

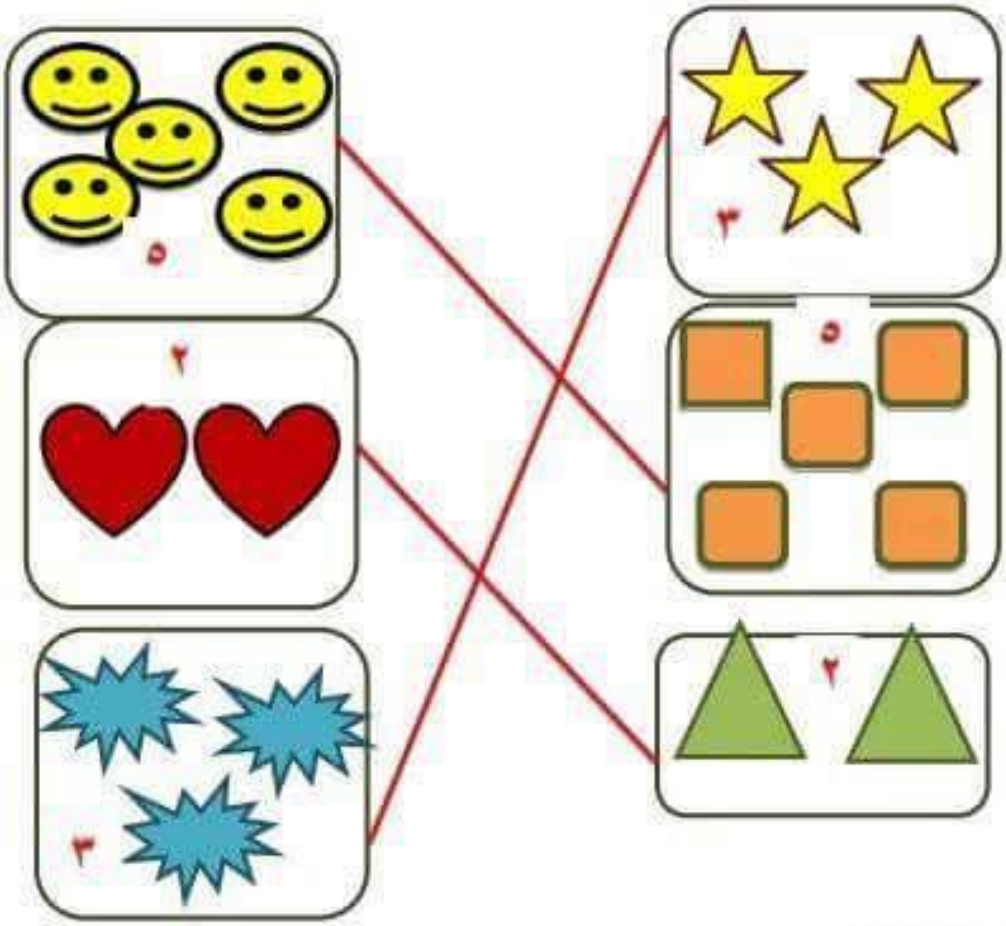

السؤال الثالث:-

ضع علامة > أو < أو = :-

☺ ٣	>	٨
☺ ٥	<	٤
☺ $\frac{١}{٢}$	=	نصف
☺ 	<	



ارسم حتي تتساوى المجموعات :-





ضع دائره حول أكبر عدد :-

ستة		٧	صفر

السؤال الرابع:-

اكتب الكسر الذى يعبر عن الجزء المظلل :-



ربع



نصف

اكتب بالحروف:-

٩☺ = تسعة

٣☺ = ثلاثة

٠☺ = صفر

٥☺ = خمسة



اختر الإجابة الصحيحة :-

البداية



☺ ترتيب  هو ... ... (الثالث - الخامس – السابع)

☺ ترتيب ..... الرابع ( -  - )

☺ ترتيب  هو..... (الأول – السادس – السابع)

☺ ترتيب ..... هو الثاني ( -  - )

عد ثم اكتب بالحروف :-



.....ستة.....



.....اربعة.....

