مراجعة الوحدة الأولى



الاسم:----------

الصف الثاني ( )

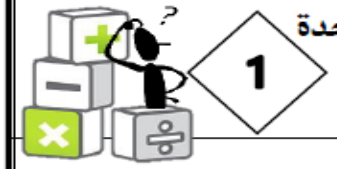

الوحدة 1

الدرس 7: طرح بالعد التنازلي

○ عد تنازلياً للطرح. استخدم خط الأعداد:



$10 - 4 =$	$9 - 2 =$	$12 - 4 =$
$6 - 3 =$	$7 - 4 =$	$10 - 5 =$
$11 - 1 =$	$12 - 3 =$	$11 - 3 =$
$4 - 2 =$	$8 - 1 =$	$5 - 1 =$

$$\begin{array}{r} 10 \\ -\ 1 \\ \hline \end{array} \qquad \begin{array}{r} 5 \\ -\ 3 \\ \hline \end{array} \qquad \begin{array}{r} 12 \\ -\ 4 \\ \hline \end{array} \qquad \begin{array}{r} 9 \\ -\ 2 \\ \hline \end{array}$$



الوحدة 1

الدرس 8: طرح الكل وطرح الصفر

○ اطرح:

①  $4 - 0 =$ $4 - 4 =$	②  $1 - 0 =$ $1 - 1 =$	③  $3 - 3 =$ $3 - 0 =$
④ $\begin{array}{r} 7 \\ -\ 6 \\ \hline \end{array}$	⑤ $\begin{array}{r} 8 \\ -\ 3 \\ \hline \end{array}$	⑥ $\begin{array}{r} 10 \\ -\ 0 \\ \hline \end{array}$
⑦ $6 - 2 =$	⑧ $9 - 4 =$	⑨ $17 - 17 =$
⑩ $\begin{array}{r} 3 \\ -\ 2 \\ \hline \end{array}$	⑪ $\begin{array}{r} 11 \\ -\ 5 \\ \hline \end{array}$	⑫ $\begin{array}{r} 10 \\ -\ 10 \\ \hline \end{array}$



الوحدة 1

الدرس 9: الطرح باستخدام المضاعفات

○ استخدم المكعبات وحقائق المضاعفات للطرح:

①  $2 + ____ = 4$ $4 - 2 = ____$	②  $3 + ___ = 6$ $6 - 3 = ____$	③  $5 + ___ = 10$ $10 - 5 = ____$
④ $\begin{array}{r} 7 \\ -\ 5 \\ \hline \end{array}$	⑤ $\begin{array}{r} 8 \\ -\ \square \\ \hline 4 \end{array}$	⑥ $\begin{array}{r} 10 \\ -\ 0 \\ \hline \end{array}$
⑦ $7 + ____ = 14$ $14 - 7 = ____$	⑧ $9 + ____ = 18$ $18 - 9 = ____$	⑨ $4 + ____ = 8$ $8 - 4 = ____$

▪ صنعت مريم **16** دمية في وقت فراغها. فقررت أن تبيع منها **8** دمى. كم عدد الدمى المتبقية لدى مريم؟



_____ دمية

حل المسائل:



الوحدة 1

الدرس II: الحدود الجمعية الناقصة

○ أوجد الحد الجمعي الناقص. ارسمه على هيئة عدة نقاط على قطعة الدومينو.

 3+□= 10	 6+□= 8	 □+6 = 13
 8+□= 16 16 − 8 =□	 □+9 = 11 11 − 9 =□	 6+□= 15 15 − 6 =□
6+□= 6 6 − 6 =□	□+5 = 10 10 − 5 =□	9+□= 16 16 − 9 =□
4+□= 13 13 − 4 =□	□+7 = 14 14 − 7 =□	6+□= 11 11 − 6 =□
4+□= 7 7 − 4 =□	□+8 = 8 8 − 8 =□	6+□= 12 12 − 6 =□



الوحدة 1

الدرس IO: الربط بين الجمع والطرح

○ استخدم المكعبات وحقائق المضاعفات للطرح:

① 
5 − 3 = _____

② 
9 − 2 = _____

③ 
5 + 3 = _____
8 − 5 = _____
8 − 3 = _____

④ 
4 + 3 = _____
7 − 3 = _____
7 − 4 = _____

⑤ 
6 + 6 = _____
12 − 6 = _____

⑥ 
4 + 5 = _____
9 − 4 = _____
9 − 5 = _____

⑦
10 + 1 = _____
11 − 10 = _____

⑧
9 + 5 = _____
14 − 5 = _____

⑨
3 + 7 = _____
10 − 3 = _____
10 − 7 = _____

⑩
8 + 5 = _____
13 − 8 = _____
13 − 5 = _____



الوحدة 1

الدرس I3: المسائل الكلامية المكونة من خطوتين للأعداد المطونة من رقم

○ قم بحل جميع المسائل الكلامية المكونة من خطوتين.

▪ يوجد **10** ضفادع على ورقة زنبق الماء. فقفزت منها **4** ضفادع إلى الماء. ثم قفز ضفدعين آخرين للماء . كم أصبح عدد الضفادع المتبقية على ورقة زنبق الماء؟

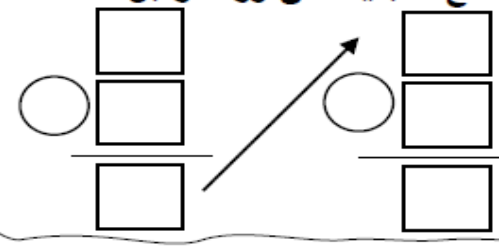



_____ ضفادع

▪ لدى ساره **8** قطط جميلة في المنزل. قامت ببيع **2** منها لزميلتها مريم. وعادت لتشتري **4** قطط أخرى لتضيفها لقططها التي في المنزل فكم أصبح عدد القطط في منزلها ؟

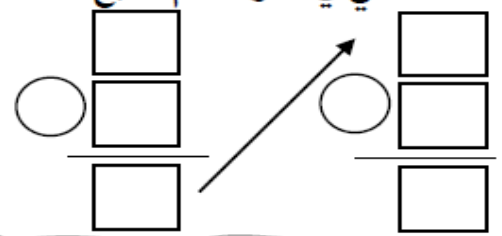



_____ قطط

▪ هبطت **6** عصافير على جذع شجرة. طار منها **3** عصافير بعيداً. ثم أتت **5** عصافير لتنضم لهم على جذع الشجرة فكم أصبح عدد العصافير التي على جذع الشجرة؟

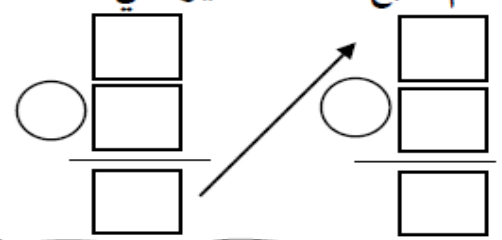



_____ عصافير

الوحدة 1

الدرس I2: عائلات الحقائق

○ أكمل عائلة الحقائق كلها مما يأتي:

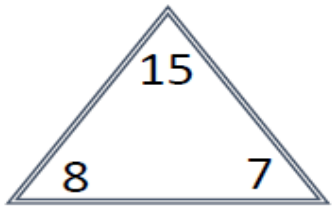

_____ + _____ = _____

_____ + _____ = _____

_____ − _____ = _____

_____ − _____ = _____

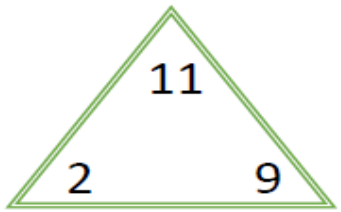

_____ + _____ = _____

_____ + _____ = _____

_____ − _____ = _____

_____ − _____ = _____

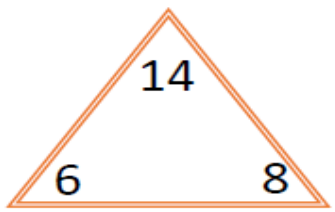

_____ + _____ = _____

_____ + _____ = _____

_____ − _____ = _____

_____ − _____ = _____

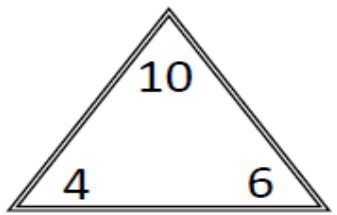

_____ + _____ = _____

_____ + _____ = _____

_____ − _____ = _____

_____ − _____ = _____