اوراق تدريبية لنهاية الفصل الدراسي الأول للصف الثاني الأساسي

أولا : أ – صغيرتي المميزة لوني المربع الصحيح باللون الأصفر :

1- نحن نعيش على كوكب	الارض	عطارد	المريخ
2- يسمى كوكب الأرض بالكوكب	البني	الاحمر	الازرق
3- شكل الكرة الأرضية	مستطيل	مربع	دائري
4- تقع دولة الإمارات في قارة	آسيا	افريقيا	اوروبا
5- أكبر القارات هي	امريكا الشمالية	آسيا	افريقيا
6- اصغر القارات هي	استراليا	اوروبا	آسيا
7- القارة المتجمدة هي	آسيا	افريقيا	القطبية الجنوبية
8- عدد قارات العالم	7	8	9
9- أكبر المحيطات هو	الهندي	الهادي	الأطلسي
10- يجاور دولة الامارات	الخليج العربي	بحر العرب	البحر الاحمر

ب- أكملي الجمل التالية بالكلمات التالية :

★ الصيف ★ الخريف ★ الشتاء ★ الربيع

1-تتساقط أوراق الأشجار في فصل .....

2- ترتفع درجة الحرارة في فصل .....

3- تسقط الأمطار في فصل .....

4- تتفتح الأزهار في فصل .....

ج- صلي بين العمودين :

نسبة الماء	29
نسبة اليابسة	72
	71
	82

اوراق تدريبية لنهاية الفصل الدراسي الأول للصف الثاني الأساسي



بحـــر



مضيق

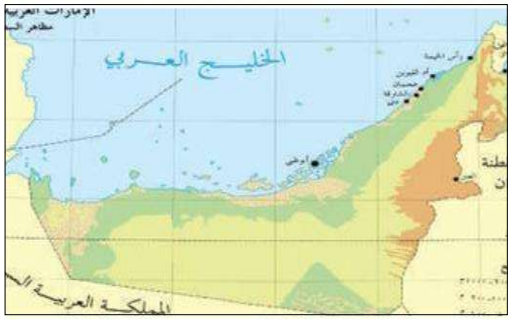

محيط

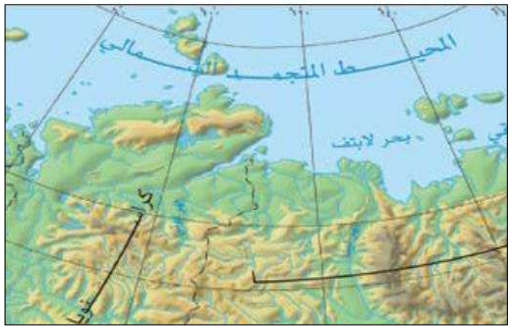

خليج

اوراق تدريبية لنهاية الفصل الدراسي الأول للصف الثاني الأساسي

ضعي الكلمات التالية في مكانها الصحيح من الجدول :

1- سنة كاملة 2- 24 ساعه 3- الليل و النهار 4- الفصول الأربعة

الحـــــركة اليومية	الحـــــركة السنوية

- ضع الكلمة في مكانها المناسب : (الشَّمسْ - النهَّار- القمَر - الفضَاء)

- أنا ..... أُشَكِّلُ الَمْصدرَ الرَّئيسَ لِلْحرارَةِ.
- أنا ..... أُنيِر الأرض لَيْلاً.
- أَبْدَأُ عِنْدَ طُلوعِ الشَّمْسِ، فَأنا.....
- ..... هو المَكانُ الّذي توجَدُ بهِ ا لأَرْضُ والشَّمْسُ والقَمَرُ.

صل بين المفهوم و المعنى المناسب :

المفهوم	المعنى
الحركة السنوية	مُسَطَّحاتٌ مائيَّةٌ أَصْغَرُ مِنَ المُحيطات في المَساحَةِ والعُمْقِ.
البحار	تدورُ ا لأَرْضُ حَوْلَ الشَّمْسِ مِنَ الغَرْبِ إِلى الشرق وَتَسْتَغْرِقُ هَذِهِ الدَّوْرَةُ سَنَةً كامِلَةً
المحيط	مُسَطَّحٌ مائي تحيطُ بهِ اليابسَةُ مِنْ ثلاث جهاتٍ، وَيَتَّصِلُ بالمُحيطاتِ عَبْرَ فَتحاتٍ ضَيِّقَةٍ تسَمَّى المَضائِقَ.
الخليج	مُسَطَّحٌ كبير جدًّا منَ الماءِ المالحِ.
إفرست	هيَ قِطْعَةٌ كَبيرَةٌ مِنَ اليابسَةِ على سَطْحِ ا أ لَرْضِ
القارة	أعلى قمة جبلية
القطبية الجنوبية	أكبر القارات الموجودة على سطح الأرض
آسيا	القارّةُ البارِدَةُ جدًا

اوراق تدريبية لنهاية الفصل الدراسي الأول للصف الثاني الأساسي

أختارُ ا لإجابَةَ الصّحيحَةَ للجُمَلِ التالية :

1- تقَعُ دَوْلَةُ ا لإماراتِ العَربيّةِ المُتحِدَةِ في قارَّةِ:
(أفريقيا - آسيا - أوروبّا - أستراليا)

2- القارَّةُ الّتي تحيطُ بها المياهُ مِنْ جَميع الجهاتِ:
(- أفريقيا - آسيا - أوروبّا - أستراليا)

3- القارَّةُ الباردَةُ، ولا يوجدُ فيها سُكّانٌ هي:
(أفريقيا - آسيا - أوروبّا - القُطبيّةُ الجَنوبيّةُ)

4- عَدَدُ القارّاتِ في العالَمِ هوَ:
(4 - 5 - 6 - 7)

5- هي أَرْضٌ مُتَخَفِضَةٌ مُسْتويَةٌ، تمْتدُّ بالقُرْبِ مِنَ البحارِ.
(السهول الساحلية - الجبال - الصحراء)

6- هي كُثبانٌ رَمليّةٌ صَفْراءُ اللَّوْنِ تغَطّي مساحَةً كَبيرةً مَنْ أَرْضِ دَوْلَتي الحَبيبةِ
(السهول الساحلية - الواحة - الصحراء)

7- هيَ أَرْضٌ مُرْتفعَةٌ، لها قِمّةٌ واضِحَةٌ.
(السهول الساحلية - الجبال - الصحراء)

8- أَرْضٌ مُتَخَفضَةٌ وَسَطَ الصّحراءِ، تتوفَّرُ المياهُ العَذْبَةُ
(الصحراء - السهول - الواحة)

ضعي الكلمات التالية في مكانها الصحيح :

الماء العذب - الغلاف المائي - الغلاف الأرضي - المياه المالحة - المَوْقِعُ الجغرافي - العالَمُ القَديمُ - الوَطَنُ العَرَبيُّ

	القِسْمُ الّذي تغَطّيهِ اليابسَةُ
	القِسْمُ الّذي تغَطّيهِ المياه
	ماءٌ لاَ يحتوي على مِلْحٍ.
	تتكَوَّنُ مِنَ المُحيطاتِ والبحارِ وَالخلجانِ والبُحيراتِ المالِحةِ
	(آسيا - أوروبّا - أفريقيا)
	هو مَوْقِعُ المكَانِ بالنّسْبَةِ للمَناطِقِ المُجاورَةِ لَهُ
	هي دولة لغتها العربية و توجد في قارة آسيا و افريقيا

اوراق تدريبية لنهاية الفصل الدراسي الأول للصف الثاني الأساسي

أصل بين الكلمة و الصورة المناسبة :

الصَّحراءُ | الجِبالُ | السَّهْلُ السّاحِليُّ | الواحَةُ



أُقارِنُ بَيْنَ السَّاحِلِ الشرقي و الغربي في دَوْلَةِ الإمارات العرَبيّةِ المُتحِدَةِ وَفْقَ مُعطياتِ الجدولِ التالي :

وَجْهُ المُقارَنة	السهل الساحلي الشرقي	السهل الساحلي الغربي
الطول(طويل – قصير)		
الاتساع (ضيق – واسع)		
يقع على	بحر	الخليج .....
المدن	خورفكان و	عجمان و .....

ألون الجملة الصحيحة فقط :

أبو ظبي هي عاصمة دولة الإمارات	عجمان هي أصغر المدن الاماراتية مساحة
دبي هي عاصمة الثقافة	رأس الخيمة فيها جبل جيس
الفجيرة تقع على بحر عمان	تقع أم القيوين على الخليج العربي

اوراق تدريبية لنهاية الفصل الدراسي الأول للصف الثاني الأساسي

ضعي اسم المدينة تحت الصورة المناسبة :

(أبو ظبي - دبي - الشارقة -أم القيوين - عجمان - رأس الخيمة - الفجيرة)



.....



.....



.....



.....



.....



.....



.....

اوراق تدريبية لنهاية الفصل الدراسي الأول للصف الثاني الأساسي

أَضَعُ تَحْتَ كُلِّ صورَةٍ في القائِمَةِ (أ) رَقَمَ الصّورَةِ الَّتي تُناسِبُها في القائِمَةِ (ب) لِأَتَعَرَّفَ أَنْواعَ المَوادِّ وَالأَدَواتِ الَّتي اسْتَخْدَمَتْها المَرْأَةُ قَديمًا في دَوْلَةِ الإِماراتِ العَرَبِيَّةِ المُتَّحِدَةِ.

(أ)



1. الرَّحى



2. الكاجوجةَ



3. الخُوصُ

(ب)



.....



.....



.....

اوراق تدريبية لنهاية الفصل الدراسي الأول للصف الثاني الأساسي

أ. أَصِلُ بينَ الموادِّ الدِّراسيَّةِ وَحقيبةِ المُطَوَّعَةُ في الماضي:



القُرْآنُ الكَريمُ

اللّغةُ الإنجليزيّةُ

العلومُ

الحسابُ

الكتابةُ

ضعي الكلمات التالية في مكانها الصحيح : (صَيدٌ - زِراعَةٌ -رَعْيٌ)



.....



.....



.....

السؤال الرابع : أ- رتبي خطوات الاتحاد بوضع الرقم المناسب :

(4 3 2 1)









اوراق تدريبية لنهاية الفصل الدراسي الأول للصف الثاني الأساسي

أَخْتارُ الكَلِمَةَ المُناسِبَةَ من بَيْنَ القَوْسَيْنِ (مَدرسةٌ - مُستشفى - مبانٍ - توحيدُ القوّاتِ المُسلّحةِ)، وَأُسَجِّلُها تَحْتَ كُلِّ صورَةٍ:



إنْجازاتٌ صِحِّيَّةٌ: .....



إنْجازاتٌ عُمْرانيَّةٌ: .....



إنْجازاتٌ تَعْليمِيَّةٌ: .....



إنْجازاتٌ عَسْكَرِيَّةٌ: .....

أصل بخط بين الصورة والعبارة المناسبة لها:

الشَّيْخ زايدٌ بنُ سلطانَ آلِ نهيانَ -رَحِمَهُ اللهُ-



الشَّيْخ راشدٌ بنُ سعيدٍ آلِ مكتومٍ -رَحِمَهُ اللهُ-



الآباءُ المؤسّسونَ



قيامُ اتِّحادِ دولةِ الإماراتِ العَربيَّةِ المُتَّحدَةِ

رئيسُ الدّولةِ عندَ إعلانِ الاتِّحادِ عامَ 1971م

نائِبُ رئيسِ الدّولةِ عندَ إعلانِ الاتِّحادِ عامَ 1971م

اوراق تدريبية لنهاية الفصل الدراسي الأول للصف الثاني الأساسي

أَصِلُ بِخَطٍّ بينَ الصّورةِ والعِبارَةِ المُناسِبَةِ لَها للتَّعَرُّفِ على حاكِمِ كُلِّ إمارَةٍ:



صاحِبُ السُّمُوِّ:
الشَّيْخُ خَليفَةُ بْنُ زايِدٍ آلِ نَهْيانَ
رَئيسُ دَوْلَتِنا الحَبيبَةِ - حَفِظَهُ اللّهُ.

رَأْسِ الخَيْمَةِ



صاحِبُ السُّمُوِّ:
الشَّيْخُ مُحَمَّدُ بْنُ راشِدٍ آلِ مَكْتومٍ
نائِبُ رَئيسِ الدَّوْلَةِ رَئيسِ مَجلِس الوُزراء- رَعاهُ اللّهُ.

أَبوظَبْي



صاحِبُ السُّمُوِّ:
الشَّيْخُ سُلْطانُ بْنُ مُحَمَّدٍ القاسِمِيُّ
- حَفِظَهُ اللّهُ.

الفُجَيْرَةِ



صاحِبُ السُّمُوِّ:
الشَّيْخُ حُمَيْدُ بْنُ راشِدٍ النُّعَيْمِيُّ
- حَفِظَهُ اللّهُ.

دُبَيّ



صاحِبُ السُّمُوِّ:
الشَّيْخُ سُعودُ بْنُ راشِدٍ المُعَلا
- حَفِظَهُ اللّهُ.

الشّارِقَةِ



صاحِبُ السُّمُوِّ:
الشَّيْخُ حَمَدُ بْنُ مُحَمَّدٍ الشَّرْقِيُّ
- حَفِظَهُ اللّهُ.

عَجْمانَ



صاحِبُ السُّمُوِّ:
الشَّيْخُ سُعودُ بْنُ صَقْرٍ القاسِمِيُّ
- حَفِظَهُ اللّهُ-.

أُمِّ القيوينِ

اوراق تدريبية لنهاية الفصل الدراسي الأول للصف الثاني الأساسي

ضع البيانات التالية على الخريطة :

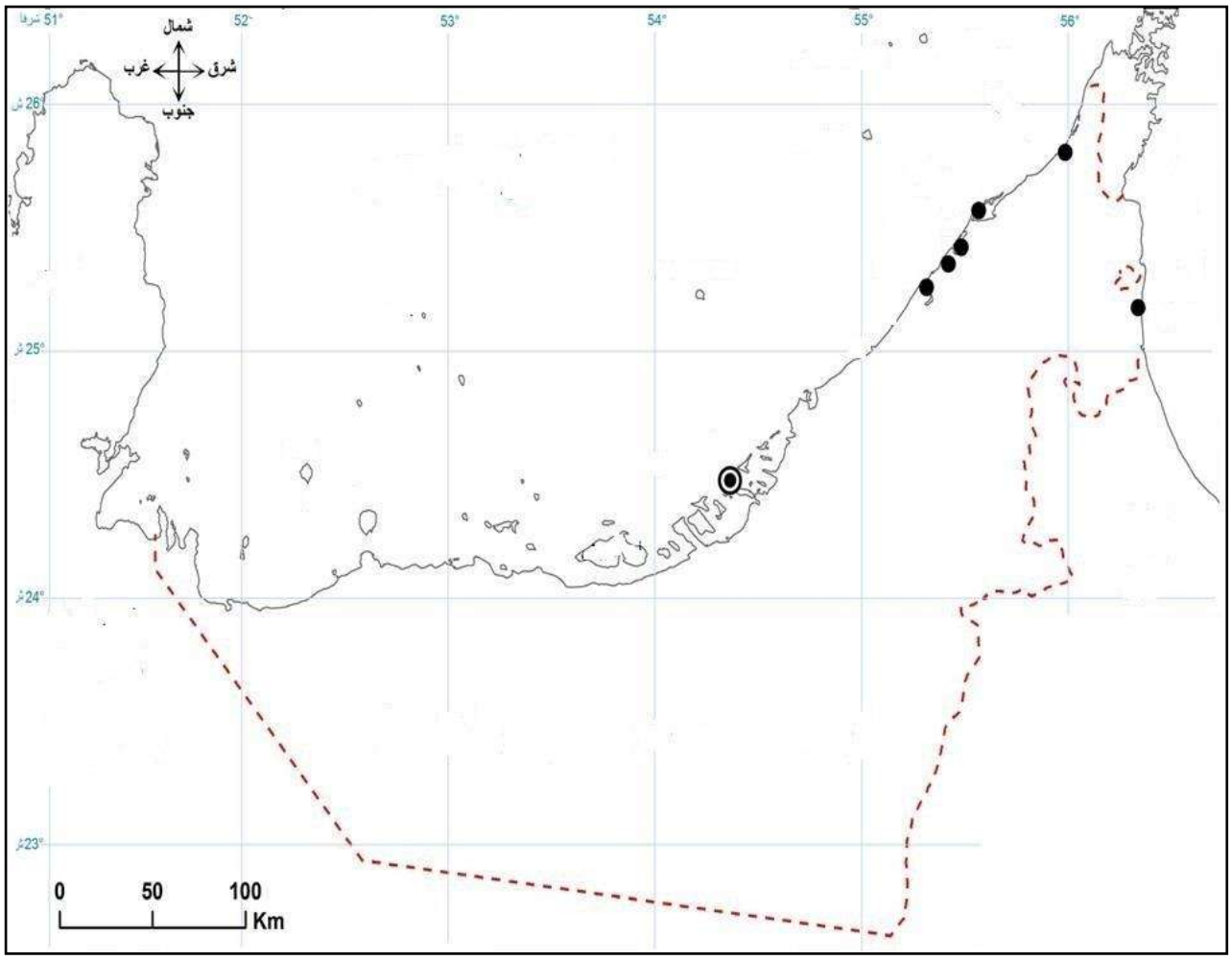

1-السعودية 2- سلطنة عمان 3- العاصمة أبو ظبي 4- الخليج العربي
5- بحر عمان

يفضل كذلك تدريب الطالبة على مواقع المدن .