تدريب الوحدة 2: أنماط الأعداد

الإسم:.....

- عد بالتجاوز . اكتب الاعداد الناقصة.

22, 24, ... , ... , 30

15 , 20 , ... , ..., 35

- اكتب العدد الناقص ، ووضع النمط . (النمط يكون العد تصاعدياً أو تنازلياً بمقدار 2 أو 5 أو 10)

50, ... , 30 , 20

عد التجاوز بمقدار .....

55, 50, ... , 40

عد التجاوز بمقدار .....

70 , 75 , ... , 85

عد التجاوز بمقدار .....

40, 42 , ... 46

عد التجاوز بمقدار .....

عد بالتجاوز لايجاد الاجمالي :

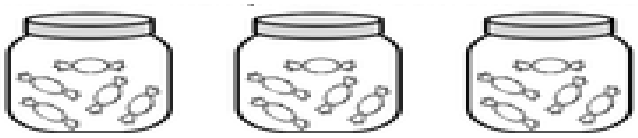

..... مجموعات تتكون كل منها من ..... إجمالا .....



..... مجموعات تتكون كل منها من ..... إجمالا .....

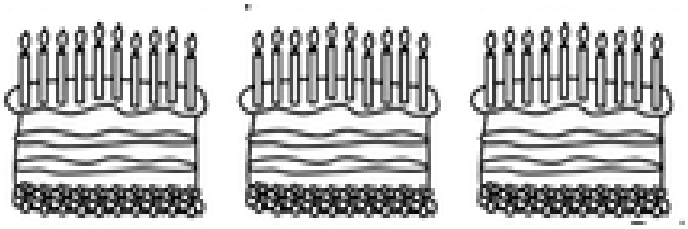

..... مجموعات تتكون كل منها من ..... إجمالا .....

حل المسألة: ارسم صورة لمساعدتك إذا لزم الامر :

- مع مريم 4 مجموعات وضعت في كل منها 5 ألعاب ، فكم يبلغ إجمالي عدد الألعاب الموجودة لدى مريم؟

.....

- لدى سعيد 6 مجموعات تتكون كل منها من 10 بطاقات لحضور المسرحية ،

مع راشد 3 مجموعات تتكون كل منها من 10 بطاقات لحضور المسرحية ، فكم يبلغ إجمالي عدد البطاقات الموجودة لديهما؟ .....

الجمع المتكرر



..... + ... + ... = ...



..... + ... + ...+..... = ...



..... +..... + ... + ...+.....+..... = ...

- لدى فاطمة 4 أزواج من الجوارب . يتكون كل زوج منها من جوربين، فكم عدد الجوارب التي تمتلكها فاطمة؟ .....

- لدى أحمد 5 أحواض من السمك . في كل حوض فيه 10 سمكات . فكم يبلغ إجمالي عدد السمك لديه؟

.....

الاعداد الزوجية والفردية

وضح الاعداد الزوجية بكتابة حرف (ز) والاعداد الفردية بحرف (ف) :

6 ..... 5 ..... 2 .....

12 ..... 9 ..... 8 .....

19 ..... 16 ..... 13 .....

مجموع الأعداد المتساوية

اكتب الحدود الجمعية المتساوية التي تكون هذا المجموع :

4 = ... + ... 2 = ... + ...

8 = ... + ... 6 = ... + ...

12= ..... + ... 10 = ... + ...

16 = ... + ... 14 = ... + ...

20 = ... + ... 18 = ... + ...

يفضل حفظ هذه الطرق