منطقة رأس الخيمة التعليمية مدرسة وادي اصفني للتعليم الأساسي والثانوي للبنين المجال الثاني للرياضيات والعلوم	أوراق عمل لمادة الرياضيات	الإسم:..... الصف الأول الأساسي ...../...../..... 2011 م	



معلم المجال الثاني: محمد مصطفى بنات	رؤيتنا..... جيل متعلم..... وعمل متكامل	ملاحظات..وتوقيع ولي الأمر ....

منطقة رأس الخيمة التعليمية مدرسة وادي اصفني للتعليم الأساسي والثانوي للبنين المجال الثاني للرياضيات والعلوم	أوراق عمل لمادة الرياضيات	الإسم:..... الصف الأول الأساسي ...../...../..... 2011 م	

تذكر يا صغيري بأننا نعرفنا على عمليات الجمع والطرح فهيا لنتدرب عليها أكثر ونميز بينها من خلال المسائل التالية

جد ناتج ما يلي؟

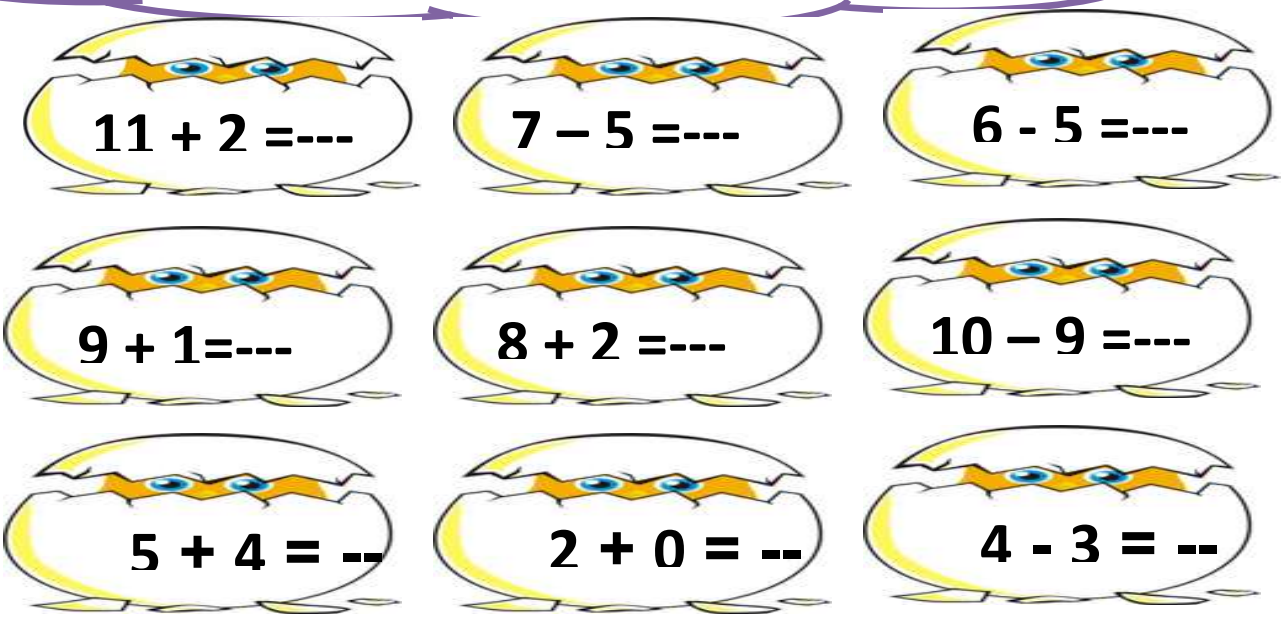

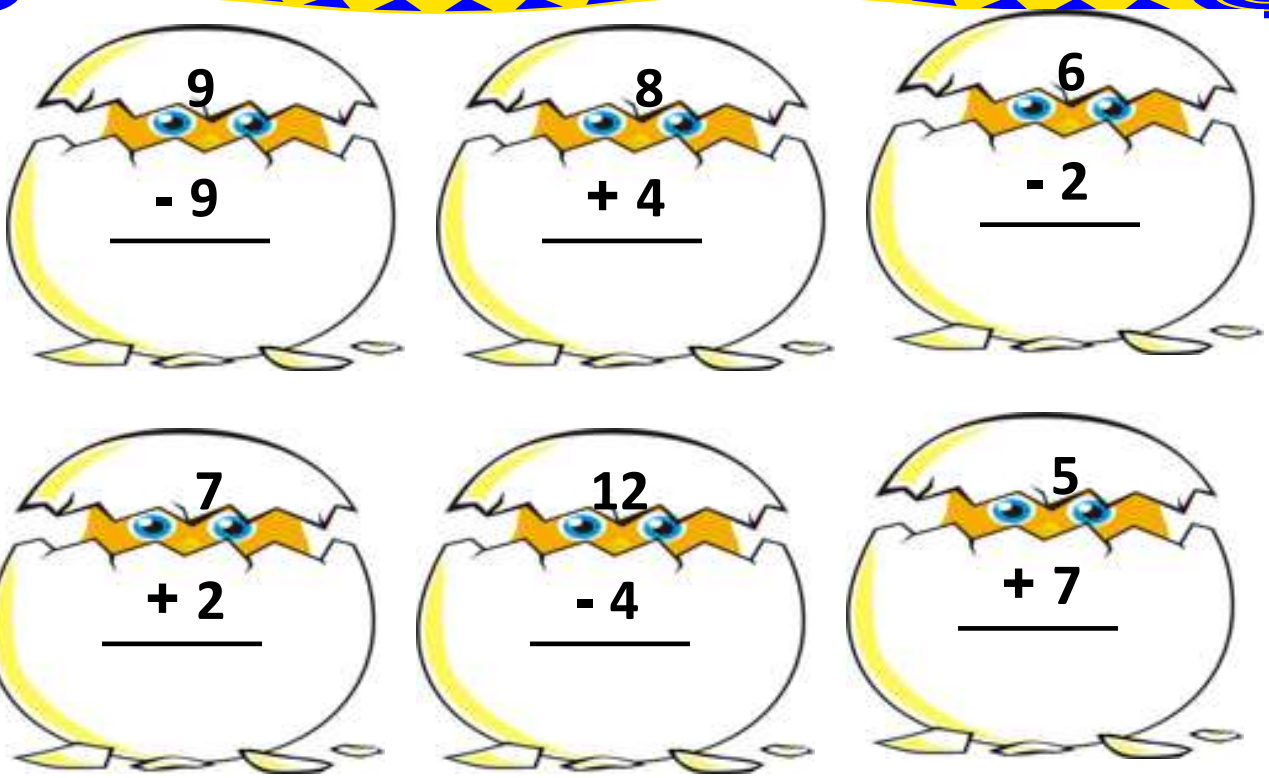

معلم المجال الثاني: محمد مصطفى بنات	رؤيتنا..... جيل متعلم..... وعمل متكامل	ملاحظات..وتوقيع ولي الأمر ....

منطقة رأس الخيمة التعليمية مدرسة وادي اصفني للتعليم الأساسي والثانوي للبنين المجال الثاني للرياضيات والعلوم	أوراق عمل لمادة الرياضيات	الإسم:..... الصف الأول الأساسي /...../ 2011 م	مدرسة وادي اصفني للتعليم الأساسي والثانوي للبنين جيل متعلم عمل متكامل

والآن وبعد أن اتقنا عمليات الجمع والطرح فهيا لنميز بينهما و لنتدرب عليها أكثر من خلال المسائل التالية

على الشجرة 4



انضم إليها 5



فما عدد كل ؟



__ ◯ __ = __

كان لدى المعلمة 12



أعطت منها لطالباتها 4



فكم بقيت لدى المعلمة ؟



__ ◯ __ = __

كان في الغابة 9



3 هربت بعيداً



فما عدد الباقية ؟



__ ◯ __ = __

كان في السلة 6



أضافت لها أمي 3



فما عدد كل ؟



__ ◯ __ = __

تذكر صغيري بأنك ستضع إما علامة + أو علامة ــ في ◯ وتذكر أيضاً في عملية الجمع نستخرج عدد الكل أما في الطرح فإننا نستنتج الأعداد الباقية

معلم المجال الثاني: محمد مصطفى بنات	رؤيتنا..... جيل متعلم..... وعمل متكامل	ملاحظات..وتوقيع ولي الأمر ....

منطقة رأس الخيمة التعليمية مدرسة وادي اصفني للتعليم الأساسي والثانوي للبنين المجال الثاني للرياضيات والعلوم	أوراق عمل لمادة الرياضيات	الإسم:..... الصف الأول الأساسي ...../...../..... 2011 م	

تذكر يا صغيري بأن عملية الطرح عبارة عن فصل مجموعة كبيرة لمجموعتين صغيرتين فهيا لنتدرب عليها أكثر من خلال المسائل التالية، جدناتج ما يلي؟

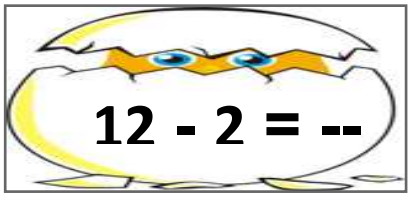

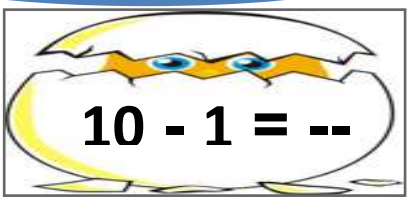

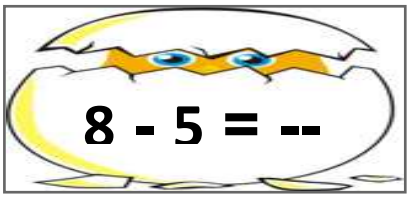

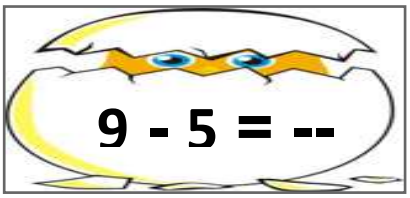

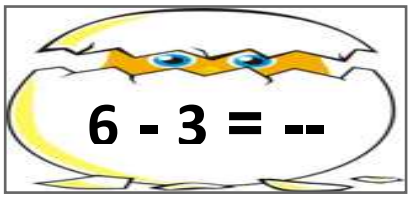

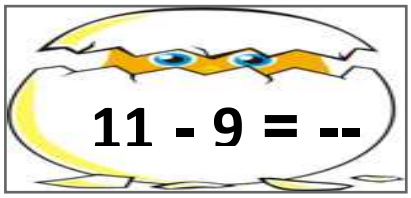

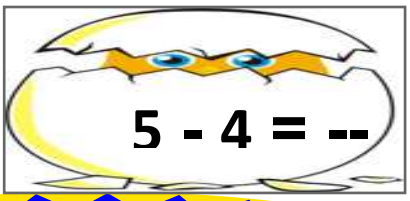

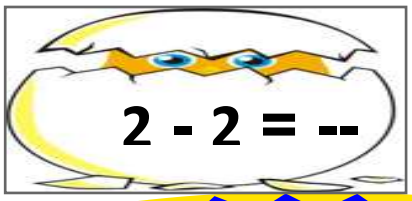

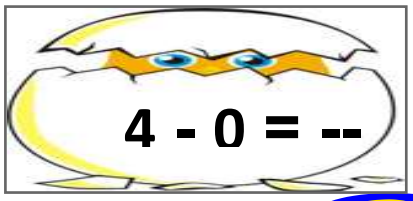













معلم المجال الثاني: محمد مصطفى بنات	رؤيتنا..... جيل متعلم..... وعمل متكامل	ملاحظات..وتوقيع ولي الأمر ....

منطقة رأس الخيمة التعليمية مدرسة وادي اصفني للتعليم الأساسي والثانوي للبنين المجال الثاني للرياضيات والعلوم	أوراق عمل لمادة الرياضيات	الإسم:..... الصف الأول الأساسي ...../...../..... م 2011	

تذكريا صغيري بأن عملية الطرح الأفقية والرأسية لها نفس الناتج فهيا لنتدرب عليها أكثر من خلال المسائل التالية

هيا يا صديقي المتميز . ركز جيداً على الجمل التالية: اشطب، وجد ناتج الطرح؟

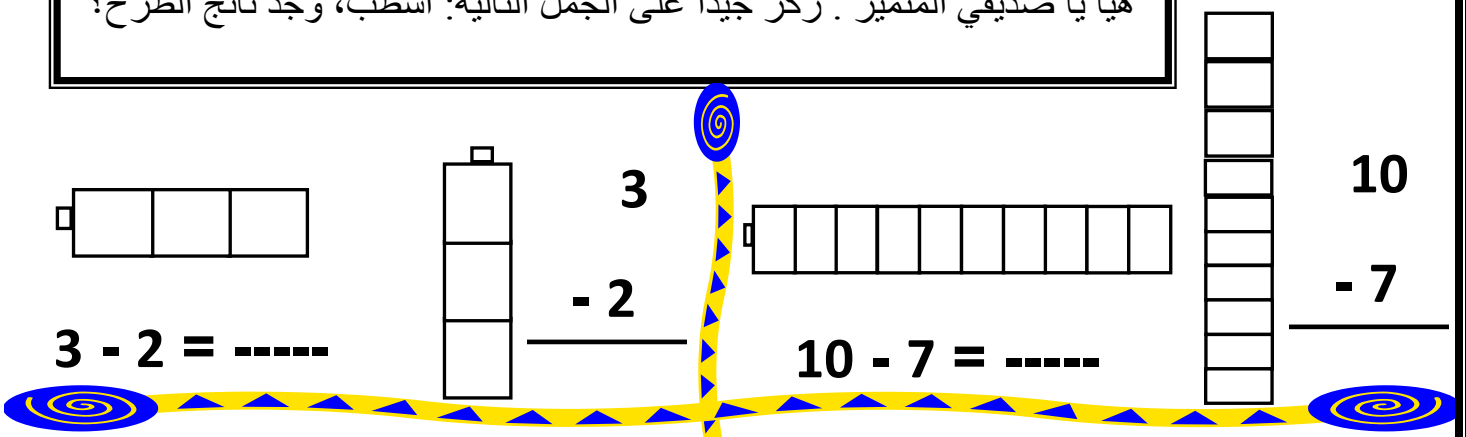

هيا يا صديقي المتميز .. ركز جيداً على الجمل التالية وأوجد ناتج طرح الجمل العددية؟

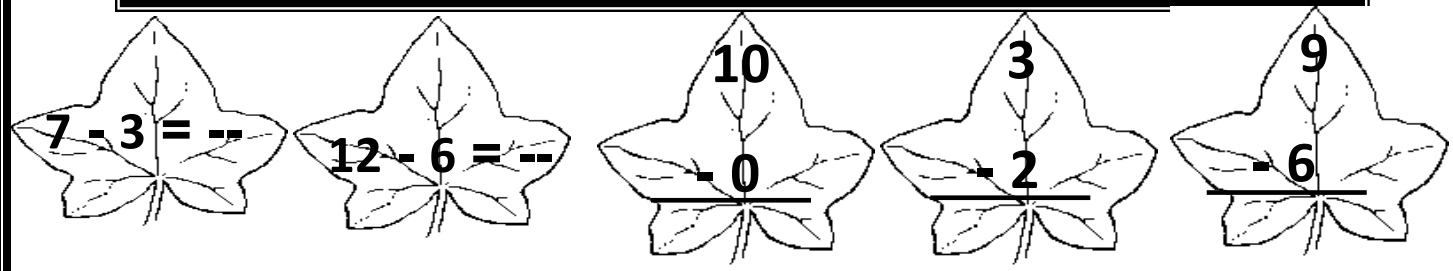

معلم المجال الثاني: محمد مصطفى بنات	رؤيتنا..... جيل متعلم..... وعمل متكامل	ملاحظات..وتوقيع ولي الأمر ....

منطقة رأس الخيمة التعليمية مدرسة وادي اصفني للتعليم الأساسي والثانوي للبنين المجال الثاني للرياضيات والعلوم	أوراق عمل لمادة الرياضيات	الإسم:..... الصف الأول الأساسي ...../...../..... 2011 م	مدرسة وادي اصفني للتعليم الأساسي والثانوي للبنين جيل متعلم عمل متكامل

كم أنا سعيد بحلك الرائع في عمليات الطرح ولنثبت مهارتنا أكثر ابعث إليك بمسائل طرح أخرى فهلا حللتها؟

هيا يا صديقي المتميز .. ركز جيداً على الجمل التالية واكتب الجملة العددية،ثم جد الناتج؟

على الشجرة 11 

طار منها 5 

فكم  بقي في البحيرة ؟

__ . __ = __

كان لدى المعلمة 7 

انفجرت منها 4 

فكم  بقيت لدى المعلمة ؟

__ . __ = __

كان في الغابة 12 

3  ركضت بعيداً

فما عدد  الباقية ؟

__ . __ = __

كان في الثلاجة 4 

تناولت منها هدى 3 

فما عدد  الباقية ؟

__ . __ = __

تذكر صغيري بأنه أثناء الطرح نقوم بالتوصيل من العدد الصغير إلى العدد الكبير لنعرف الناتج

معلم المجال الثاني: محمد مصطفى بنات	رؤيتنا..... جيل متعلم..... وعمل متكامل	ملاحظات..وتوقيع ولي الأمر ....

منطقة رأس الخيمة التعليمية مدرسة وادي اصفني للتعليم الأساسي والثانوي للبنين المجال الثاني للرياضيات والعلوم	أوراق عمل لمادة الرياضيات	الإسم:..... الصف الأول الأساسي ...../...../..... م 2011	

أرأيت يا صغيري بأنه عملية الطرح سهلة وممتعة فهيا
لنتدرب عليها أكثر من خلال المسائل التالية :-

هيا يا صديقي المتميز .. ركز جيداً على الجمل التالية واشطب لتري جملة الطرح العددية كما في المثال



8 — 2 = -----



6 — 4 = -----



3 — 3 = -----



5 — 1 = -----



معلم المجال الثاني: محمد مصطفى بنات	رؤيتنا..... جيل متعلم..... وعمل متكامل	ملاحظات..وتوقيع ولي الأمر ....

منطقة رأس الخيمة التعليمية مدرسة وادي اصفني للتعليم الأساسي والثانوي للبنين المجال الثاني للرياضيات والعلوم	أوراق عمل لمادة الرياضيات	الإسم:..... الصف الأول الأساسي ...../...../..... 2011 م	مدرسة وادي اصفني للتعليم الأساسي والثانوي للبنين جيل متعلم عمل متكامل

وبعد أن تعرفنا على الجمع ما رأيك يا صغيري أن نتعرف على الطرح فهيا لنمضي معاً

هيا يا صديقي المتميز .. ركز جيداً على الجمل التالية واكتب العدد المتبقي؟

في البحيرة 8

خرجت منها 5 

فكم  بقي في البحيرة ؟

بقي ---

رسمت نورة في لوحتها 9 

ومن ثم مسحت هند منها 4 



فكم بقي ---

كان لدى أحمد 7 

أكل منها 4 

فما عدد  الباقية ؟

بقى ---

كان في الثلاجة 8 

تناولت منها فاطمة 5 

فما عدد  الباقية ؟

بقى ---

تذكري صغيري بأنه أثناء الطرح نقوم بالتوصيل من العدد الصغير إلى العدد الكبير لنعرف الناتج

معلم المجال الثاني: محمد مصطفى بنات	رؤيتنا..... جيل متعلم..... وعمل متكامل	ملاحظات..وتوقيع ولي الأمر ....