الاسم:.....

الصف : .الثاني / .....

مراجعة الوحدة 1 : تطبيق مفاهيم الجمع والطرح

❖ **اختر الأجابة الصحيحة :**

1 – قامت مريم بعد 6 من الزهور الحمراء و 8 زهور صفراء . في حديقة الفناء الخلفي . فما إجمالي عدد الزهور التي عدتها مريم ؟

a) 8+6=14 b) 7+7=14 c) 8-6=2

2 – ما حقيقة الجمع المستخدمة في هذا النمط ؟

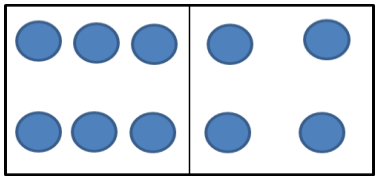

a) 6 + 4 = 10 b) 6 + 6 =12 c) 6 – 2 = 4

3 – حوط الجملة العددية التي توضح الحدود الجمعية ؟

a) 5+ 4 =9 b) 5 + 4 =9 c) 5 + 4 =9

4 – حوط الجملة العددية التي توضح المجموع ؟

a) 5+ 4 =9 b) 5 + 4 =9 c) 5 + 4 =9

5– حوط الجملة العددية التي توضح الفرق ؟

a) 6 - 4 =2 b) 6 - 4 =2 c) 5 + 4 =9

إعداد المعلمة وفاء الليلي

6 – حوط ناتج جمع ؟ 9 + 0 = _____

a) 0 b) 9 c) 18

7– حوط ناتج جمع ؟ 8 + 8 = _____

a) 18 b) 17 c) 16

8 – سجل فريق محمد 9 أهداف في المباراة الأولى . و سجل 4 أهداف في المباراة الثانية . فما إجمالي عدد الأهداف التي سجلها فريق محمد؟

a) 5 b) 13 c) 31

9 - عد تصاعدي للجمع و استخدم خط الأعداد و اوجد المجموع



7 + 5 = _____

a) 2 b) 11 c) 12

10 – اشترت علياء 7 بيضات من السوق و اشترت مريم 7 بيضات . فما إجمالي عدد البيضات مع مريم و علياء ؟

a) 14 b) 12 c) 0

11 – حوط حقيقة المضاعفات في الجمع التي تساعدك على حل _____ 7 + 8 =

a) 8 + 7 = 15 b) 7 + 7 = 14 c) 8-7=1

إعداد المعلمة وفاء الليلي

12 – حوط حقيقة شبة المضاعفات ـــــــ = 4 + 4

a) 4 + 3 = 7 b) 3 +3= 8 c)4 – 4 = 0

13 – باع محمد 6 ثمرات تفاح ل أحمد . و كمال العدد نفسة من ثمار التفاح لخالد . فكم عدد ثمار التفاح التي باعها محمد إجمالاً ؟

a) 12 b) 13 c) 21

14 – مع عهد 8 أقلام رصاص . و مع سلامة أقلام رصاص أقل مما مع عهد بمقدار 3 أقلام . فما إجمالي عدد الأقلام التي مع عهد و سلامة ؟

a) 8+3=11 b) 8+5=13 c) 8-3=5

15 – أوجد ناتج جمع ما يلي و حوط الإجابة الصحيحة ؟

7 + 3 + 5 = ـــــ

a) 14 b) 13 c) 15

16 – في حديقة منزل ريمة يوجد 4 أرانب و 3 دجاجات و 6 قطط . فما إجمالي عدد الحيوانات الموجودة في حديقة منزل ريمة ؟

a) 7 b) 13 c) 16

17 – استخدم خط الأعداد و اوجد الفرق ؟ ـــــــ = 5 – 12



a) 6 b) 7 c) 17

إعداد المعلمة وفاء الليلي

14 –حدد الجملة العددية التي تستخدم المضاعفات

a) 4 – 4 = 0 b) 4 + 2 = 6 c) 4 - 2 = 2

15 - يوجد 8 عصافير على الشجرة . طارت جميعها . كم عصفورا بقي على الشجرة ؟

a) 0 b) 8 c) 16

16 - قطف نايف و اخوة علي 18 حبة تفاح . أخذ علي 9 حبات من التفاح . فكم عدد التفاح المتبقي مع نايف ؟

a)28 b) 8 c) 9

17 - أختر حقيقة الطرح التي تساعدك على حل _____ = 8+ 7 ؟

a) 15 – 8 = 7 b) 8+7=15 c) 15 – 9 = 6

19 - سجل فريق أحمد في مباراة البيسبول 14 هدفا . أما فريق سعيد سجل نصف عدد الأهداف التي سجلها فريق أحمد . فكم عدد الأهداف التي سجلها فريق سعيد ؟

a)14 b) 8 c) 7

20 - أوجد ناتج الطرح و حوط الإجابة _____ = 16 - 9 ؟

a) 8 b) 7 c) 25

أوجد ناتج جمع كل ما يلى :

3 +5 =..... 9 +5 =..... 12 +6 =.....

5 + 3 = ... 5 + 9 = ... 6 + 12 = ...

+ 6 4	+ 7 6	+ 8 8	+ 8 0	+ 9 8
☐	☐	☐	☐	☐

6 4 + 3	5 4 + 3
☐	☐

5 + 5 +6 =.....

7 + 3 +2 =.....

أوجد ناتج جمع كل ما يلي باستخدام خط الأعداد :



5 +5 =..... 7 +4 =..... 3 + 9 = ...

أوجد ناتج طرح كل ما يلي :

16 - 8 =..... 10 - 6 =..... 12 -0 =.....

14 - 9 = ... 9 - 9 = ... 13 - 7 = ...

$$\begin{array}{r} 6 \\ -\ 6 \\ \hline \square \end{array} \qquad \begin{array}{r} 17 \\ -\ 10 \\ \hline \square \end{array} \qquad \begin{array}{r} 8 \\ -\ 2 \\ \hline \square \end{array} \qquad \begin{array}{r} 8 \\ -\ 0 \\ \hline \square \end{array} \qquad \begin{array}{r} 9 \\ -\ 8 \\ \hline \square \end{array}$$

اطرح و حوطي على حقائق المضاعفات:

6 + 6 =..... 7 + 7 =.....

12 - ..... = 6 14 - ..... = 7

$$\begin{array}{r} 9 \\ +\ 9 \\ \hline \square \end{array} \qquad \begin{array}{r} 18 \\ -\ \square \\ \hline 9 \end{array}$$

استخدم حقائق الجمع للطرح :

8 + 7 = ... 7 + 5 = ...

15 - 8 = ... 12 - 5 = ...

15 - 7 = ... 12 - 7 = ...

$$\begin{array}{r} 6 \\ +\ 2 \\ \hline \square \end{array} \qquad \begin{array}{r} 8 \\ -\ 2 \\ \hline \square \end{array} \qquad \begin{array}{r} 9 \\ +\ 4 \\ \hline \square \end{array} \qquad \begin{array}{r} 13 \\ -\ 4 \\ \hline \square \end{array}$$

إعداد المعلمة وفاء الليلي

أوجد ناتج طرح كل ما يلي باستخدام خط الأعداد :

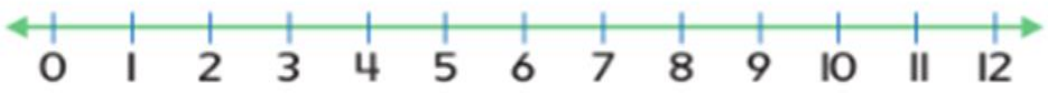

9 - 1 = ... 11 - 6 =..... 8 - 5 =.....

أكتب جمل جمع و الطرح لحل المسائل التالية :

1 - أسماك 3 اسماك كبيره و 6 أسماك صغيره و 5يوجد في حوض السمك متوسطة الحجم . فكم عدد الأسماك الموجودة في الحوض ؟

أسماك _____ ◯ _____ ◯ _____ ◯ _____

2 -كتب مصوره من المكتبة . 8 كتب مصوره . وقد حصل على 6 لدى محمد ما إجمالي الكتب التي مع محمد ؟

كتب _____ ◯ _____ ◯ _____ ◯ _____

3 – مع خولة 6 ملصقات على شكل نجمه . و مع ميرة ملصقات أكثر مما مع خولة بمقدار 3 أقلام . فما إجمالي عدد الأقلام التي مع عهد و سلامة ؟

كتب _____ ◯ _____ ◯ _____ ◯ _____

4 – يوجد 16 نحلة تطير في الحقل . غادر منها 8 نحلات . فكم نحلة بقيت في الحقل ؟

كتب _____ ◯ _____ ◯ _____ ◯ _____

الاسم:.....

الصف : .الثاني / .....

مراجعة الوحدة 2 : أنماط الأعداد

❖ اختر الأجابة الصحيحة :

1 – لدى خديجة 18 من النباتات و تريد تقسيمها بين اثنتين من صديقاتها فكم عدد النباتات التي ستعطيها لكل منهما ؟

a) 9 b) 10 c) 8

2 – يفكر محمد في عدد . هذا العدد هو الآتي في النمط 40 , 35 , 30 , 25 فما هو العدد ؟

a) 54 b) 41 c) 45

3 – عد بالتجاوز و أختر العدد الناقص ؟

32 , 34 , 36 ....., 40

a) 37 b) 38 c) 35

4 - اذا كان هناك 5 أحواض سمك . في كل حوض 3 أسماك . كم إجمالي عدد الأسماك الموجودة إجمالا ؟

a) 15 b) 8 c) 51

5 – عد بالتجاوز و أوجد إجمالي الفتاحات ؟



a) 3 b) 4 c) 12

6 – زرافة لديها 4 أرجل . زرافتين لديهما 8 أرجل .كم عدد الأرجل لستة 6 زرافات ؟

a) 12 b) 20 c) 16

7 - لدى عمر 3 صناديق مملوءة بأحجار الزينة . و يستوعب كل صندوق 10 أحجار . فإذا فام بملء صندوق آخر . كم يصبح عدد أحجار الزينة الموجودة لدى عمر إجمالا ؟

a) 40 b) 30 c) 13

8 - ترتب مرام بعض الكتب . حيث يوجد 5 كتب في المجموعة الأولى . و 10 كتب في المجموعة الثانية . و 15 كتابا في المجموعة الثالثة ز و يستمر هذا النمط . فكم عدد الكتب التي سوف تتكون منها المجموعة الآتية؟

a) 30 b) 15 c) 20

9 – كون خلفان مجموعات متساوية من صور السلاحف . فأي وصف هو المناسب للمجموعة التي كونها خلفان ؟



a) 3 مجموعات تتكون من 3 سلاحف

b) 3 مجموعات تتكون من 5 سلاحف

C) 5 مجموعات تتكون من 3 سلاحف

10 – قامت مريم بالعد بالتجاوز . كالتالي . 35 , 40 ,45 , 50 . فما النمط الذي استخدمته مريم للعد بالتجاوز ؟

a) العد بالتجاوز بمقدار 10 b) العد بالتجاوز بمقدار 5 c) العد بالتجاوز بمقدار 2

11 – قامت سعيد بالعد بالتجاوز . كالتالي . 12 , 14 ,16 , 20 . فما النمط الذي استخدمته مريم للعد بالتجاوز ؟

a) العد بالتجاوز بمقدار 10 b) العد بالتجاوز بمقدار 5 c) العد بالتجاوز بمقدار 2

12 – أختر الجملة العددية التي تصف المصفوفة التالية ؟

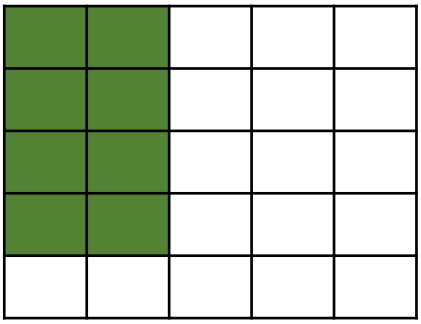

a) 2+ 2 = 4

b) 2 + 2 + 2 + 2 = 8

c) 1+1+1+1 = 4

13 – اختر الوصف المناسب الذي يصف المجموعة التالية ؟

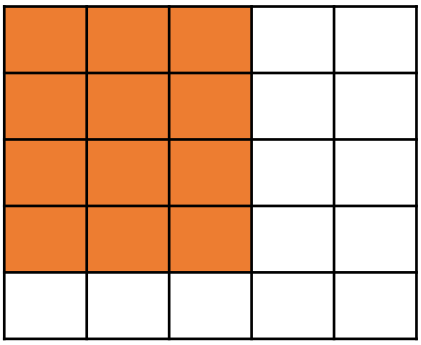

a) 4 صفوف يتكون كل منها من 3 مربعات

b) 3 صفوف يتكون كل منها من 4 مربعات

c) 3 صفوف يتكون كل منها من 3 مربعات

14 – يفكر الأستاذ حمد في عدد بين 12 و 15 . هذا العدد زوجي فما هو العدد ؟

a) 13 b) 14 c) 15

15 – لدى خديجة عدد 18 من النباتات . تريد تقسيمها . بالتساوي بين اثنين من صديقاتها . فكم عدد النباتات التي سوف تعطيها لكل منها ؟

a) 8 b) 10 c) 7

16 – اختر العدد الزوجي ؟

a) 26 b) 33 c) 7

17 – اختر العدد لفردي ؟

a) 20 b) 4 c) 17

18 – اشترت مريم 7 ثمرات من الموز و اشترت والدتها 7 ثمرات موز . فكم عدد ثمرات الموز لديهما ؟

a) 7 b) 0 c) 14

19 – أوجد الحد الجمعي الناقص: 10 + ـــــــــ = 20

a)2 b) 10 c) 0

20 – لدى عمر 10 قطط مقسمة بالتساوي بين القطط السوداء و البنية . فكم عدد القطط البنية ؟

a)10 b) 5 c) 20

إعداد المعلمة وفاء الليلي

عد بالتجاوز و اكتب الأعداد الناقصة :

العد بالتجاوز بمقدار 2 :

_____ ، 14 ، _____ ، 10 _____ ، 6

العد بالتجاوز بمقدار 2 :

_____ ، 42 ، _____ ، 36 _____ ، 32

العد بالتجاوز بمقدار 5 :

_____ ، 30 ، _____ ، 15 _____ ، 5

العد بالتجاوز بمقدار 5 :

_____ ، 80 ، _____ ، 65 _____ ، 55

العد بالتجاوز بمقدار 10 :

_____ ، _____ 50 ، _____ ، 20 ، _____ ، 10

العد بالتجاوز بمقدار 10 :

_____ ، 82 ، _____ ، 52 _____ ، 32

أكتب العدد الناقص . ووضح النمط :

_____ ، 30 ، _____ ، 10 العد بالتجاوز بمقدار _____	_____ ، _____ 66 ، 64 العد بالتجاوز بمقدار _____
_____ ، _____ ، 40 ، 35 العد بالتجاوز بمقدار _____	_____ ، _____ 30 ، 25 ، _____ العد بالتجاوز بمقدار _____
_____ ، _____ 80 ، 75 العد بالتجاوز بمقدار _____	_____ ، _____ 14 ، 12 ، _____ العد بالتجاوز بمقدار _____

إعداد المعلمة وفاء الليلي

عد بالتجاوز لإيجاد الإجمالي :

3 مجموعات تتكون من 2 _____ إجمالاً	4 مجموعات تتكون من 5 _____ إجمالاً
2 مجموعات تتكون من 8 _____ إجمالاً	5 مجموعات تتكون من 3 _____ إجمالاً

عد بالتجاوز لإيجاد الإجمالي :



_____ مجموعات تتكون من _____ إجمالا

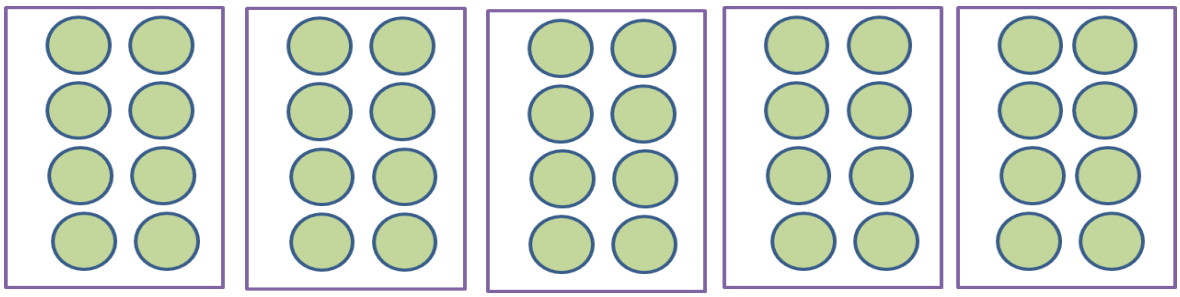

_____ مجموعات تتكون من _____ إجمالا



_____ مجموعات تتكون من _____ إجمالا

إعداد المعلمة وفاء الليلي

أجمع :



____ + _____ +_____ + _____ = ____

أرسم مثالاً ثم أجمع :

4 + 4 + 4 + 4 + 4 = ____

أكتب الحدود الجمعية المتساوية :

____ + _____ =18	____ + _____ = 2
____ + _____ =14	____ + _____ =10

أوجد الحدود الجمعية الناقصة :

10 + _____ =20	3 + _____ = 6
6 + _____ =12	____ + 4 =8

قدم وصفا للمجموعات . وعد بالتجاوز لإيجاد الإجمالي :



..... + ... + ... = ...

تتكون من ـــــــ صفوف . و كل صف يتكون من ـــــــ زهرة



..... + ... + ... = ...

تتكون من ـــــــ صفوف . و كل صف يتكون من ـــــــ سلحفاة



..... + ... = ...

تتكون من ـــــــ صفوف . و كل صف يتكون من ـــــــ بومة

قدم وصفا للشبكة التالية و و اكتب جملة عددية :

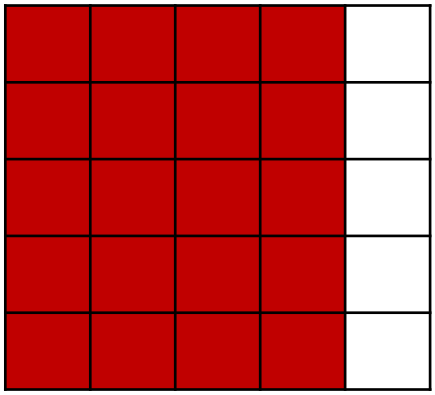

.....

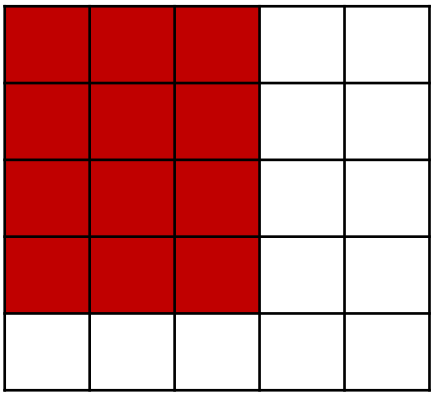

.....

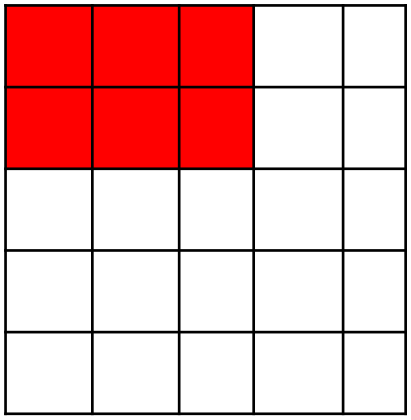

.....

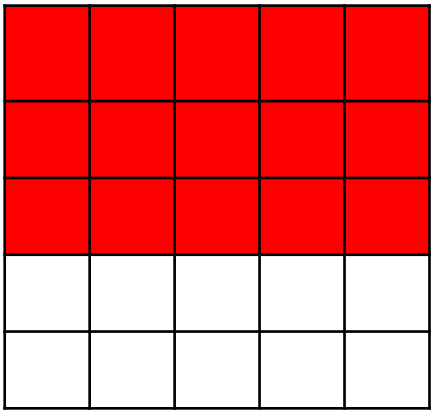

.....

ظلل الشبكة لتوضح و أكتب جملة عددية لوصفها

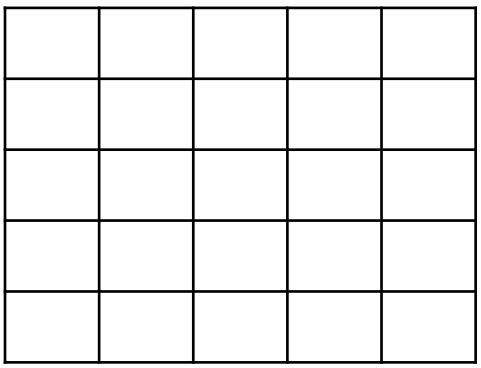

5 صفوف مكونه من 3 مربعات

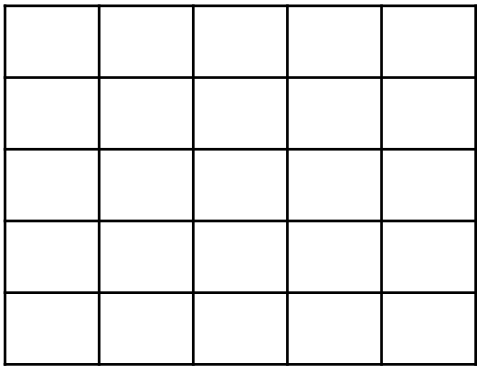

3 صفوف مكونه من 4 مربعات

حوط او ارسم لتوضيح العدد و حوط زوجي أم فردي:



زوجي فردي



زوجي فردي



زوجي فردي



زوجي فردي

زوجي
فردي
3

زوجي
فردي
20

زوجي
فردي
8

زوجي
فردي
7

إعداد المعلمة وفاء الليلي

حل المسائل التالية :

- مع شيماء 8 عناقيد عنب، في كل عنقود منها 10 حبات عنب. فكم يبلغ العدد الإجمالي لكل حبات العنب الموجودة مع شيماء ؟

- **يفكر خالد في عدد . هذا العدد هو العدد الآتي في النمط 25 ، 30 ، 35 ، 40 ما هو العدد ؟**

- اذا كان هناك 5 أحواض سمك . في كل حوض 3 أسماك . كم إجمالي عدد الأسماك الموجودة إجمالا ؟

– لدى عمر 6 احزمة من البالونات . وفي كل حزمة توجد 5 بالونات . فكم عدد البالونات الموجودة إجمالاً ؟

– اشترى جاسم 8 تفاحات . و أشترت والدته الكمية نفسها . أكتب الجملة العددية . كم عدد التفاحات لديهما ؟

– يضم فصل المعلمة عائشة 18 طالبا . يوجد عدد متساوي من الأولاد و البنات في الفصل . أكتب جملة توضح عدد الأولاد عدد البنات في الفصل ؟

مراجعة الوحدة 3 : جمع الأعداد المكونه من رقمين

❖ **اختر الأجابة الصحيحة :**

1 – أوجد ناتج جمع :

24 + 3 = ———

a) 7 b) 27 c) 21

2 – جاء 34 زبونا إلى المخبز في الصباح . و جاء 6 زبونا إلى المخبز في الظهيرة . فما إجمالي عدد الزبائن الذي جاؤوا إلى المخبز ؟

a) 4 b) 10 c) 40

3 – كيف يمكنك تفكيك 16 + 28 لإيجاد المجموع :

28 + 16 = ———

a) 28 + 10 + 6 b) 28 + 2 + 14 c) 2 + 8 +16

4 – كيف يمكنك تفكيك 45 + 17 لإيجاد المجموع :

17 + 45 = ———

a) 1 + 7 + 45 b) 17 + 4 + 5 c) 17 + 3 + 42

4 – تناول فريق كرة القدم 8 تفاحات قبل المباراه . و تناولوا 29 تفاحة بعد المبارة . فما إجمالي عدد التفاحات التي تناولها فريق كرة القدم ؟

a) 37 b) 73 c) 30

6 – حوط الصورة التي تدل على إعادة التجميع ؟

c) 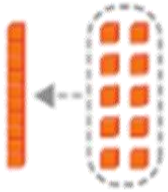

b) 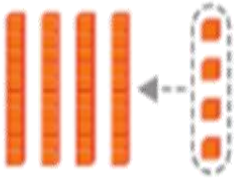

a) 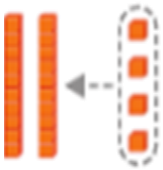

7 – ـــــــــــ هو تحويل 10 أحاد إلى عشرة واحدة ؟

c) الجمع b) إعادة تجميع a) الحدود الجمعية

8 – أوجد ناتج الجمع :

$$\begin{array}{r} 66 \\ +\ 9 \\ \hline \end{array}$$

c) 65 b) 57 a) 75

9 – أوجد ناتج الجمع :

$$\begin{array}{r} 43 \\ +\ 38 \\ \hline \end{array}$$

c) 81 b) 18 a) 71

10 – يوجد 24 طالباً في الحافلة المدرسية . ركب 17 طلاب آخرين .
فما إجمالي عدد الطلاب الموجودين في الحافلة ؟

c) 31 b) 41 a) 14

11 – أختر الإجابة التي توضح إعادة كتابة وحل المسالة التالية :

54 +26

a)
$$\begin{array}{r} 54 \\ +\ 26 \\ \hline 70 \end{array}$$

b)
$$\begin{array}{r} \overset{1}{} \\ 54 \\ +\ 26 \\ \hline 80 \end{array}$$

c)
$$\begin{array}{r} \overset{4}{5}\overset{14}{4} \\ -\ 26 \\ \hline 28 \end{array}$$

12 – أوجد ناتج الجمع :

$$\begin{array}{r} 23 \\ 21 \\ +\ 18 \\ \hline \end{array}$$

a) 62 b) 26 c) 52

12 – اشترى سيف 35 لعبة . و كان لدية 21 لعبة بالفعل . فكم سيكون لدية إذا اشترى 13 لعبة إضافية ؟

a) 54 b) 69 c) 96

13 – أكلت مريم 16 حبة عنب . و اكل محمد 18 حبة عنب و أكل منصور 10 حبات عندم و اكلت سلامة 12 حبة عنب . فما إجمالي عدد حبات العنب التي أكلوها ؟

a) 26 b) 65 c) 56

فكك لتكوين العشرات و أوجد ناتج الجمع :

48+15=.....

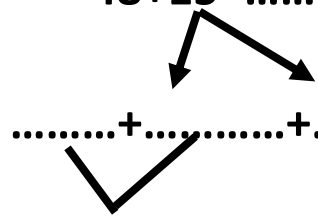

.....+.....+.....

.....+.....=.....

إذا ..... = 48 + 15

37 + 24=.....

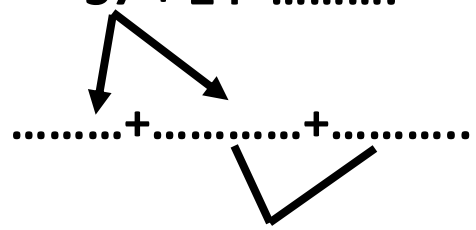

.....+.....+.....

.....+.....=.....

إذا ..... = 37 + 24

26+75=.....

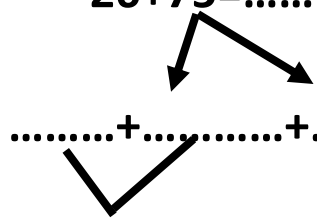

.....+.....+.....

.....+.....=.....

إذا ..... = 28 + 75

61 + 19=.....

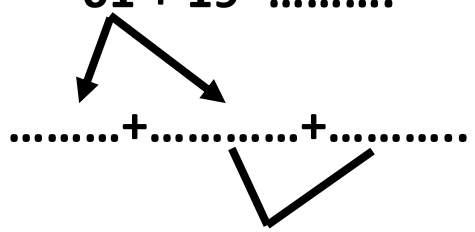

.....+.....+.....

.....+.....=.....

إذا ..... = 61 + 19

عد العشرات للجمع . و أكمل الجدول التالى ؟

	الجمع الأحاد و الجمع العشرات	هل تعيد التجميع	المجموع
65+ 9	ـــــ آحاد ـــــ عشرات	نعم لا	
23+ 6	ـــــ آحاد ـــــ عشرات	نعم لا	
36+ 8	ـــــ آحاد ـــــ عشرات	نعم لا	

إعداد المعلمة وفاء الليلي

أوجد ناتج الجمع :

23 + 68 □	56 + 8 □	23 + 61 □	76 + 3 □
48 + 19 □	36 + 26 □	28 + 5 □	56 + 4 □
29 + 19 □	35 + 22 □	38 + 60 □	56 + 40 □
43 19 + 20 □	50 10 + 18 □	10 15 + 26 □	45 11 + 9 □
26 19 + 30 □	40 10 + 12 □	10 14 + 26 □	75 11 + 4 □

إعداد المعلمة وفاء الليلي

أوجد ناتج الجمع :

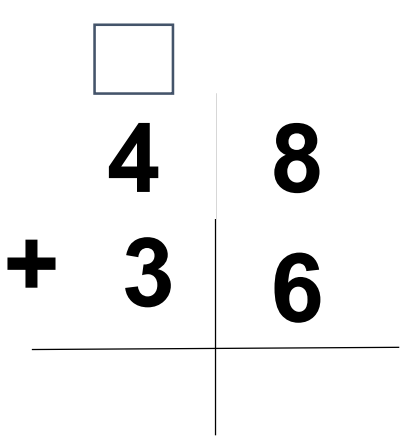

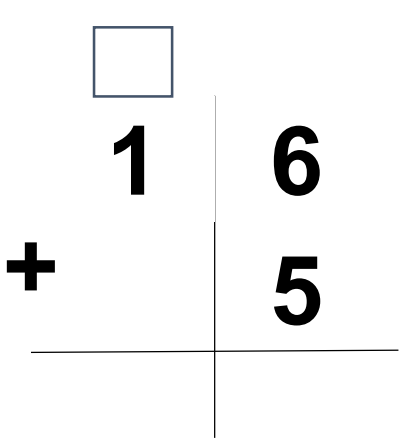

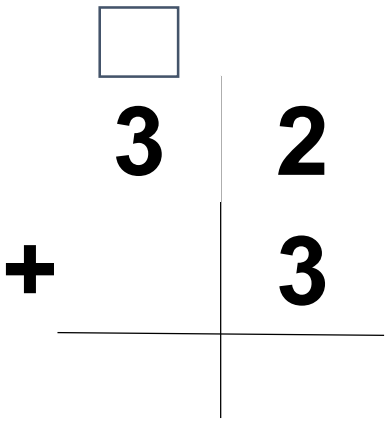

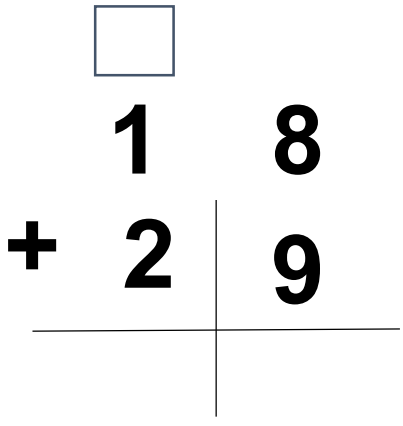

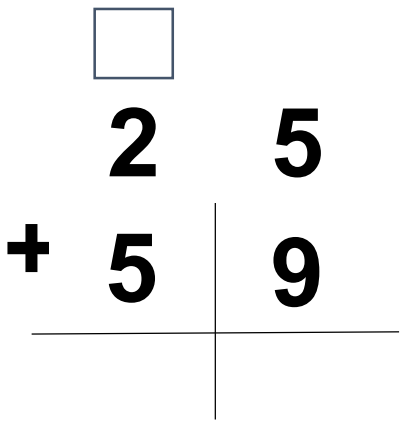

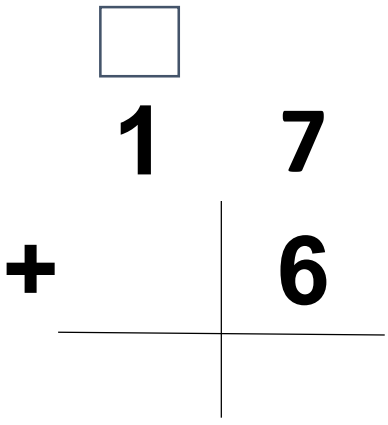

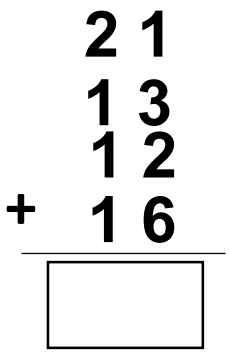

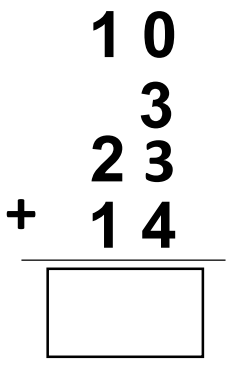

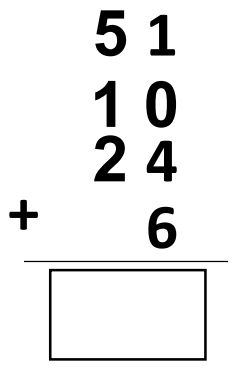

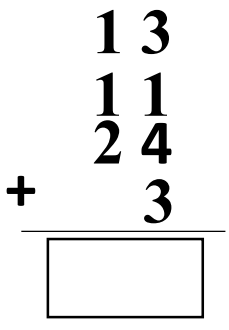

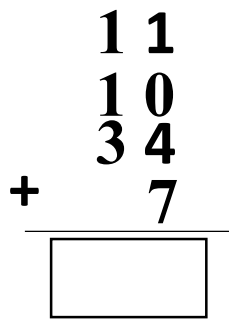

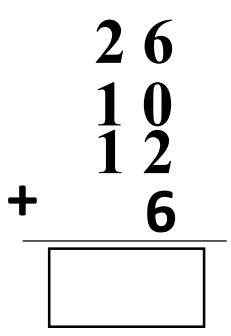

إعداد المعلمة وفاء الليلي

أعد كتابة جمل الجمع التالية

- 37+ 26

+

- 36+36

+

- 27+60

+

- 36+15

+

- 15+22

+

- 48+8

+



- 40+ 5

+

- 56+17

+

حل المسائل التالية . مع كتابة طريقة الحل :

- **جمع احمد 52طابعا بريديا و اعطاه والده 30 طابعا بريديا . كم عدد اجمالي الطوابع التي مع احمد ؟**

- **أحرزت مريم في 13 نقطة مباراة كرة السلة . و أحرزت سارة 33 نقطة و أحرزت نورة 15 نقطة و أحرزت حصة 8 نقاط . فما إجمالي عد النقاط النهائية للفريق ؟**

- **اشترى حمدان 40 حبة فراولة . و 14 حبة برتقال . و اشترى 19 حبة موز . فما إجمالي عدد الفواكه التي اشتراها حمدان ؟**

- **جمع فريق البنات 56 غطاء زجاجة . وجمع فريق الأولاد 38 غطاءً . فما إجمالي عدد الأغطية التي جمعها الفريقين ؟**

- **باع خالد 42 تذكرة لمباراة كرة القدم . و باع سلطان 35 بطاقة . فكم عدد التذاكر التي باعوها إجمالاً؟**

مراجعة الوحدة 4 : طرح الأعداد المكونه من رقمين

❖ **اختر الأجابة الصحيحة :**

1 – أوجد ناتج طرح :

38 - 6 = ———

a) 44 b) 32 c) 23

2 – عد سالم 56 طفلاً يلعبون في الحديقة . 15 من بنات . فكم عدد الأولاد الذين يلعبون في الحديقة ؟

a) 41 b) 61 c) 14

3 – أي جملة عددية مما يأتي لا تنتمي لعائلة الحقائق للأعداد 19 و 25 و 44؟

a) 44 - 25 = 19 b) 25 + 19 =44 c) 19 - 25 = 6

4 – أي جملة عددية مما يأتي تنتمي لعائلة الحقائق للأعداد 18 و 9 و 27؟

a) 27 - 7 = 20 b) 27 - 9 =18 c) 18 - 9 = 27

5 – كيف يمكنك تفكيك 17 لحل 17 – 26 ؟

a) 10 و7 b) 8 و 9 c) 20 و 6

6 – كيف يمكنك تفكيك 28 لحل 28 – 58 ؟

a) 2 و 80 b) 8 و 2 c) 8 و 20

7 – حوط الصورة التي تدل على إعادة التجميع في الطرح ؟

a) 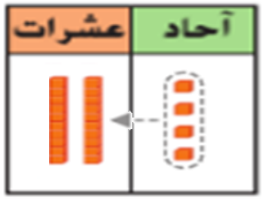

b) 

c 

8 – ـــــــــــ هو تحويل 1 عشرات إلى 10 آحاد لإيجاد الفرق ؟

a) الطرح b) إعادة تجميع c) الفرق

9 – أوجد ناتج الطرح :

$$\begin{array}{r} 23 \\ -\ 9 \\ \hline \end{array}$$

a) 14 b) 32 c) 41

10 – أوجد الفرق :

$$\begin{array}{r} 49 \\ -\ 18 \\ \hline \end{array}$$

a) 13 b)76 c) 31

إعداد المعلمة وفاء الليلي

11 – رسم جمال 30 فراشة حمراء . و 15 فراشة زرقاء . بكم فراشة تزيد الفراشات الحمراء عن الزرقاء ؟

a) 11 b) 49 c) 8

12 – لدى متجر حنان 74 فستانا . باعت منها 9 فساتين . فكم عدد الفساتين المتبقية في المتجر ؟

a) 83 b) 65 c) 56

13 – أختر الإجابة التي توضح إعادة كتابة وحل المسالة التالية :

74 - 36

a)
$$\begin{array}{r} {\scriptstyle 1} \\ 74 \\ +\ 36 \\ \hline 110 \end{array}$$

b)
$$\begin{array}{r} {\scriptstyle 1\ 14} \\ 7\not{4} \\ -\ 36 \\ \hline 48 \end{array}$$

c)
$$\begin{array}{r} {\scriptstyle 6\ 14} \\ 7\not{4} \\ -\ 36 \\ \hline 38 \end{array}$$

14– اختر الطريقة الصحيحة التي تمكنك من التحقق من جلة الطرح التالية ؟

25 - 12 = 13

a) 25 + 12 = 37 b)13 + 12 = 25 c) 25 – 13 = 12

فكك عدد لتكون العشرة و أوجد ناتج الطرح :

68 – 45

....

68 - .....= .....

..... - .....= .....

68 -45 = ...

48 – 15

....

48 - .....= .....

..... - .....= .....

48 -15 = ...

56 – 32

....

56 - .....= .....

..... - .....= .....

56 -32 = ...

88 – 12

....

88 - .....= .....

..... - .....= .....

88 -12 = ...

أكمل الجدول التالي . و أوجد ناتج الطرح ؟

اكتب الفرق	هل تعيد التجميع	
59 - 3=.....	نعم لا	59 - 3
22 - 6=.....	نعم لا	22 - 6
16 – 7 = ...	نعم لا	16 – 7
45 – 9 = ...	نعم لا	45 – 9

إعداد المعلمة وفاء الليلي

أوجد ناتج الطرح :

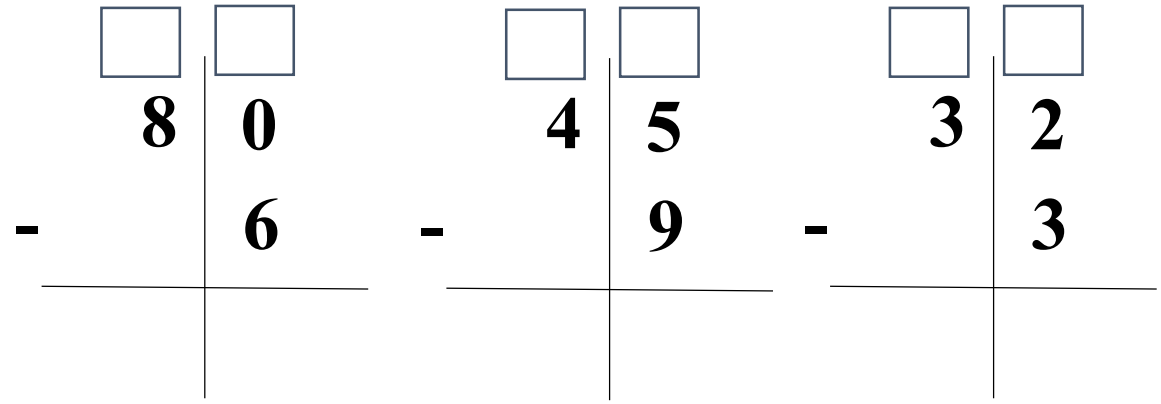

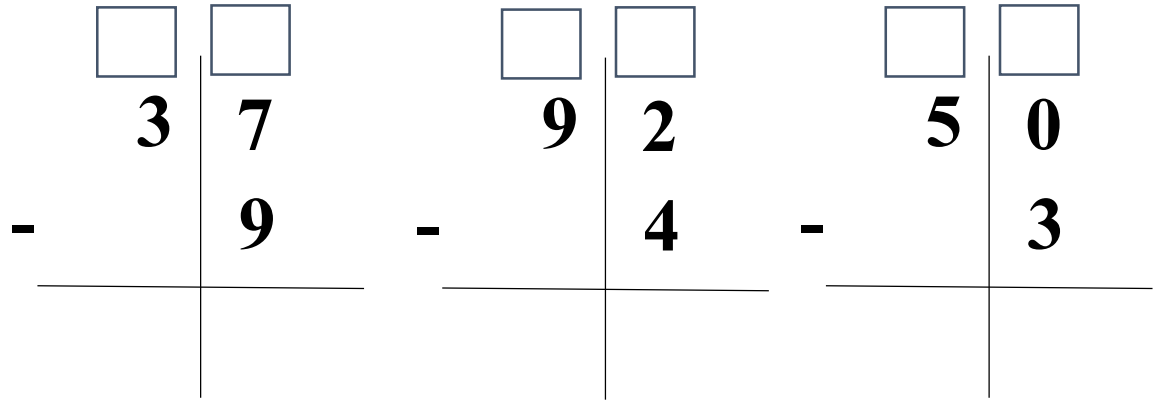

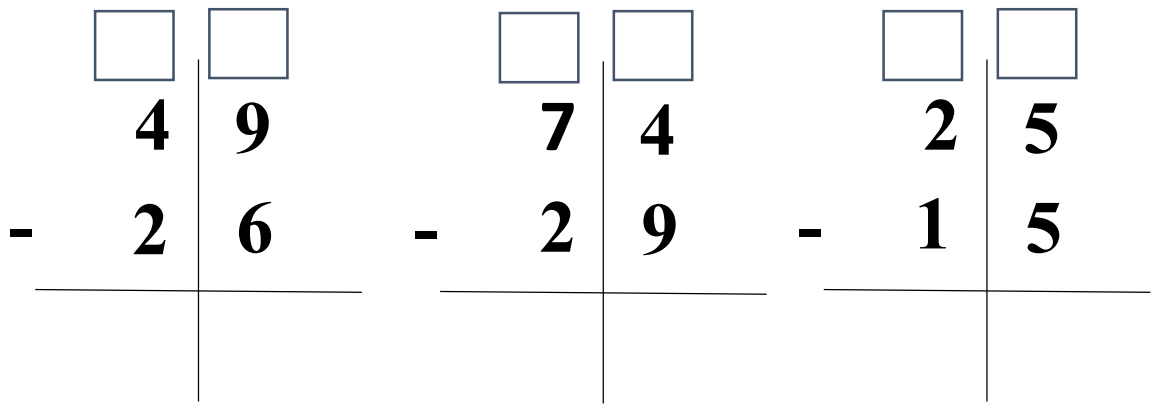

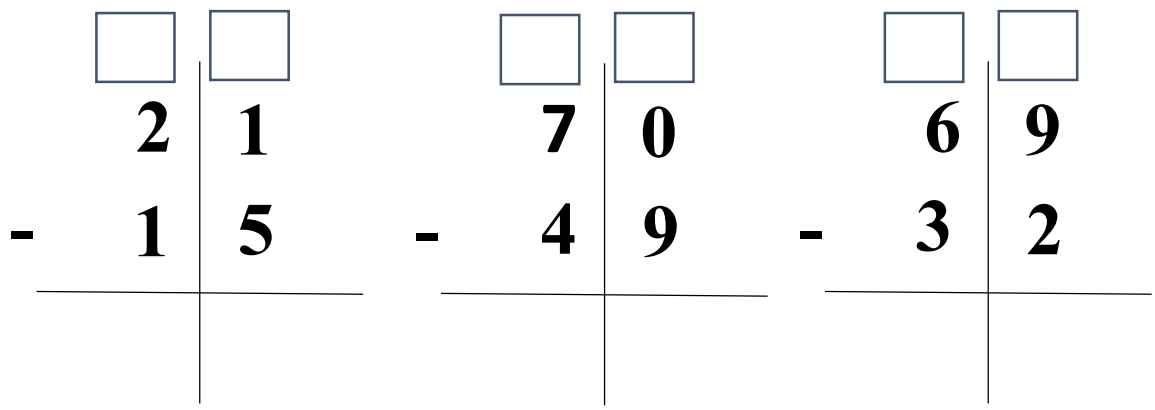

إعداد المعلمة وفاء الليلي

أعد كتابة جمل الطرح التالية :

- 42 - 38

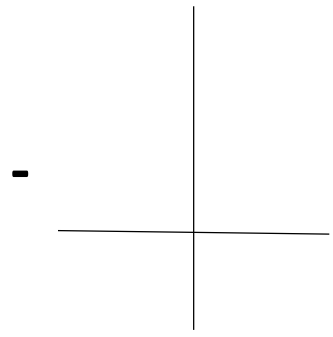

- 30 - 12

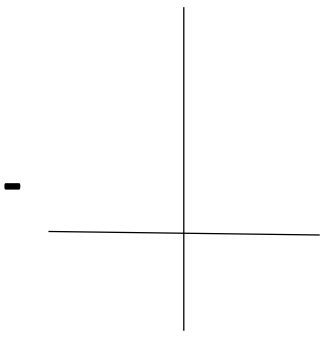

- 56 - 26

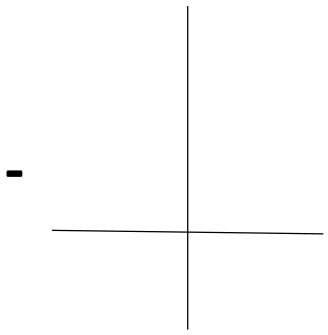

- 79 - 49

- _____

- 85 - 46

- _____

- 40 - 16

- _____

أطرح و تحقق باستخدام الجمع :

1)

3 9

- 2 5 _____ + _____

2)

5 6

- 1 8 _____ + _____

3)

7 1

- 5 7 _____ + _____

4)

4 0

- 9 _____ + _____

إعداد المعلمة وفاء الليلي

أوجد ناتج الطرح :

14 - 3 = ... 15 - 2 =..... 25 -10 =.....

58 - 26 = ... 17 - 6 =..... 65 - 6 =.....

38 - 17 =..... 86 - 39 =..... 15 - 6 = ...

$$\begin{array}{r} 15 \\ -\ 7 \\ \hline \square \end{array} \qquad \begin{array}{r} 49 \\ -\ 8 \\ \hline \square \end{array} \qquad \begin{array}{r} 30 \\ -\ 19 \\ \hline \square \end{array} \qquad \begin{array}{r} 60 \\ -\ 21 \\ \hline \square \end{array}$$

$$\begin{array}{r} 52 \\ -\ 21 \\ \hline \square \end{array} \qquad \begin{array}{r} 22 \\ -\ 16 \\ \hline \square \end{array} \qquad \begin{array}{r} 95 \\ -\ 26 \\ \hline \square \end{array} \qquad \begin{array}{r} 49 \\ -\ 17 \\ \hline \square \end{array}$$

أكمل عائلات الحقائق فى كل مما يلى :

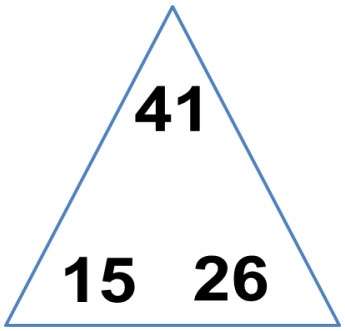

___ + ___ = ___ ___ - ___ = ___

___ + ___ = ___ ___ - ___ = ___

___ + ___ = ___ ___ - ___ = ___

___ + ___ = ___ ___ - ___ = ___

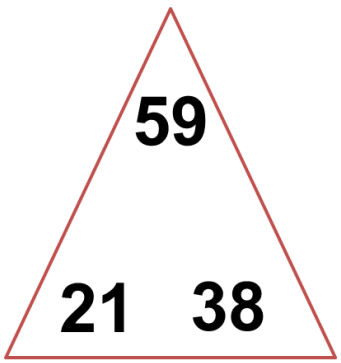

إعداد المعلمة وفاء الليلي

حل المسائل التالية . مع كتابة جمل عددية صحيحة :

- لدى سالم 38 طابعا بريديا و أخذ صديقة 16 طابعا بريديا . كم عدد الطوابع المتبقية لدى سالم ؟

.....

.....

- يوجد 56 ولداً يتزلجون في قاعة التزلج . و يوجد 47 بنتاً يتزلجون أيضا . فكم عدد الأولاد الذين يزيدون عن عدد البنات المتزلجات ؟

.....

.....

- لدى فريق خالد لكرة البيسبول 33مباراةً هذا الموسم. وقد لعب بالفعل 16 مباراةً. فكم عدد المباريات المتبقية؟

.....

.....

- يضم فصل الأستاذ هاشم 28طالبًا. تغيب 6 طلاب اليوم. وتأخر 7 طلاب عن الحضور إلى المدرسة . فكم طالبًا جاء في الموعد المحدد؟

.....

.....

- يوجد 21 أسد في ساحة حديقة الحيوانات . ركض 10 أسود إلى داخل عرين الأسد . فكم عدد الأسود المتبقية ؟

_____ ◯ _____ ◯ _____

- ذهب 89 شخصا للسباحة بالأمس . و ذهب 56 شخصا للسباحة اليوم . فكم عدد الأشخاص الذين ذهبوا للسباحة بالأمس زيادة عن اليوم ؟

_____ ◯ _____ ◯ _____

حل المسائل التالية . مع كتابة جمل عددية صحيحة :

- يضم فصل الأستاذ هاشم 32 طالبًا. تغيب 6 طلاب اليوم. وتأخر 7 طلاب عن الحضور إلى المدرسة. فكم طالبًا جاء في الموعد المحدد؟

..... طالبا

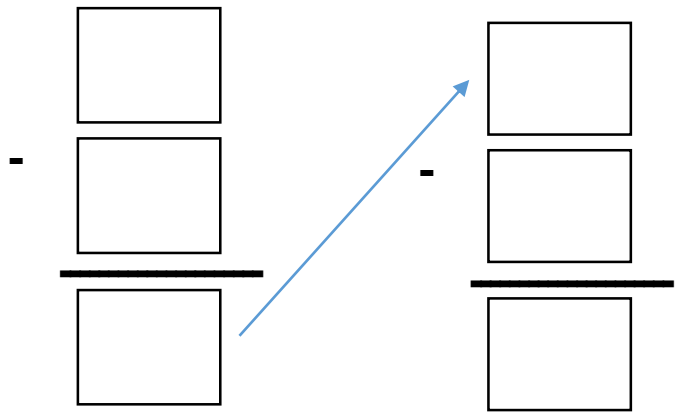

- لدى حميد 66 كتابا . أعطى 18 كتابا لصديقة . و استعار 12 كتابا من المكتبة. فكم عدد الكتب التي مع حميد الأن ؟

..... كتاب

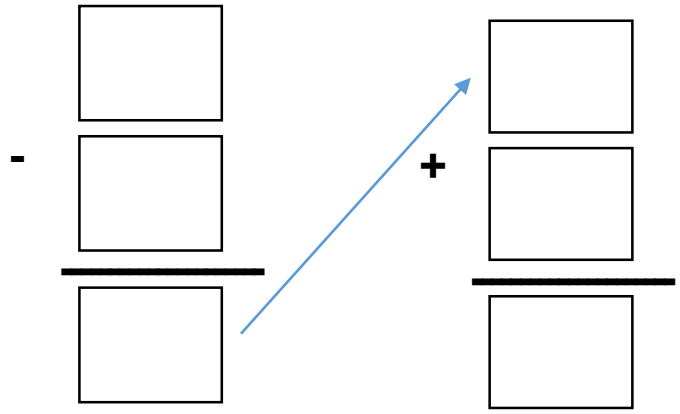

- باع خلفان 83 كوباً من شراب الكاكاو يوم الجمعة . حيث تم بيع 23 كوبا في الصباح . و وتم بيع 36 كوبا في الظهيرة . فكم عدد الاكواب التي باعها في المساء ؟

..... كوب

