United Arab Emirates
Ministry of Education
Al Bahar School for Basic Education
D 5

الإمارات العربية المتحدة
وزارة التربية والتعليم
مدرسة البحر للتعليم الأساسي ح1
نطاق د 5

مراجعة العلوم
للصف الأول الأساسي



إعداد وتقديم
المعلمتين : سارة قاسم و هيفاء سعيد

العام الدراسي 2017 / 2018

ضع إشارة (✓) أمام العبارة الصحيحة وإشارة (✗) أمام العبارة الخاطئة فيما يلي :

(1) (_____) الكائنات الحية تنمو وتتغير.

(2) (_____) تحتاج النباتات إلى الماء فقط .

(3) (_____) الكتاب والقلم من الكائنات الحية.

(4) (_____) الجذور تمتص الماء والمواد الغذائية من التربة.

(5) (_____) تحمي الثمرة البذور التي توجد بداخلها.

(6) (_____) الخياشيم تساعد الأسماك في التنفس.

(7) (_____) المأوى هو المكان التي تعيش فيه الحيوانات وتشعر بالأمان.

(8) (_____) الطيور حيوانات يغطي جسمها الشعر أو الفراء.

(9) (_____) يعد النمل والفراشات من الحشرات.

حوطِ الإجابة الصحيحة

1. كـائن غير حي





2. كـائن حي .





3. ما هو الجزء المسؤول عن صنع الغذاء للنبته.





4. ما هو الشي الذي لا تحتاج إليه النباتات كي تنمو.





حوطِ الإجابة الصحيحة

5. أي شكل يظهر كائنا حياً؟





6. أي شكل لا يظهر كائناً حياً؟





7. حوطي الشيء الذي تحتاج إليه النبته لتنمو؟





8. حوطي على الشيء الذي لا تحتاج إليه النتبه لتمنو؟





9. عندما تأكلين  فأنتِ تأكلين أي جزء من النبته؟

جذور ساق أوراق

10. عندما تأكلين  فأنتِ تأكلين أي جزء من النبته؟

جذور ساق أوراق

11. عندما تأكلين  فأنتِ تأكلين أي جزء من النبته؟

جذور ساق أوراق

12. عندما تأكلين  فأنتِ تأكلين أي جزء من النبته؟

ساق أوراق بذره



13. -يسمى الساق السميك لهذه الشجرة ؟

ثمره جذع بذره

(وظائف أجزاء النبات)

حوط الإجابة الصحيحة :

1- الجزء المسؤول عن إنتاج البذور؟



2- الجزء المسؤول عن نقل الغذاء والماء ؟



3- الجزء المسؤول عن صنع الغذاء ؟



4- الجزء المسؤول عن تثبيت النبات في الأرض؟



حوطي الإجابة الصحيحة

جزء من النبات الذي ينتج البذور هو





جزء من النبات الذي يمكن أن يتحول إلى نبات جديد هو





جزء من النبات الذي ينمو حول البذور هو





أكتب الرقم الصحيح لأجزاء النبات في المكان المناسب.

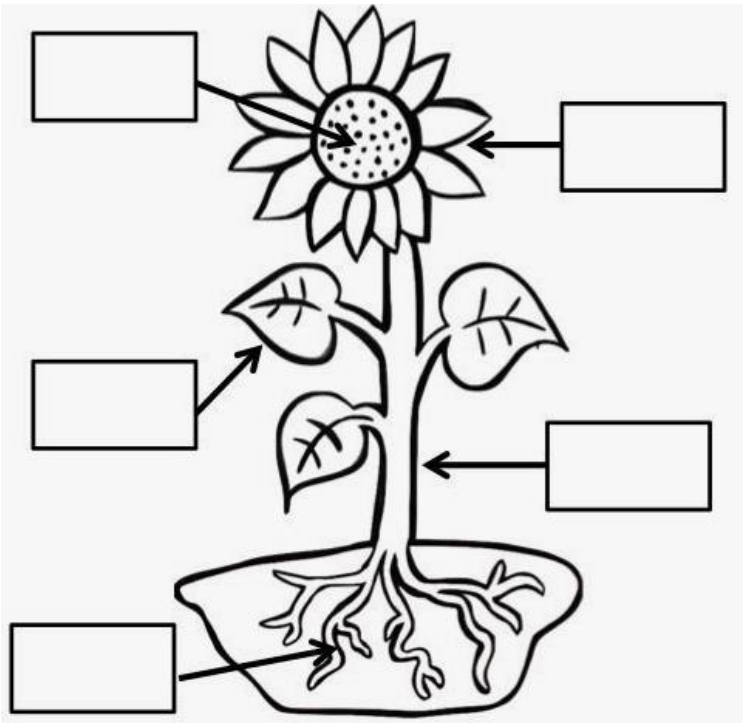

1. الساق
2. الأوراق
3. الزهرة
4. البذور
5. الجذور

أكتب الرقم الصحيح لأجزاء البذرة في مكانها المناسب

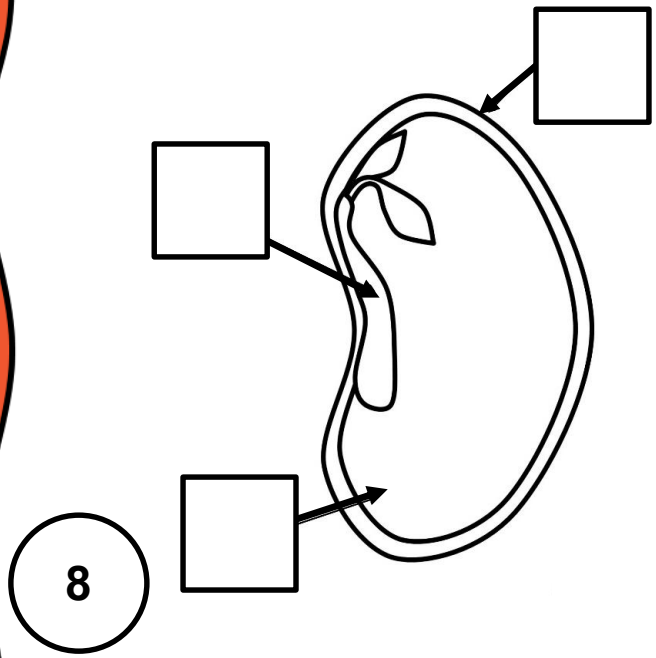

1. البادرة (النبته الصغيرة)
2. الغلاف الخارجي
3. غذاء البذرة

استخدمي كل كلمه مره واحدة لإكمال الجمل

جذور	ساق	أوراق

1. كلاهما




_____

_ _ _ _ _ _ _ _ _ _ _ _ _ _ _ _ _

_____

_____

2. كلاهما




_____

_ _ _ _ _ _ _ _ _ _ _ _ _ _ _ _ _

_____

_____

3. كلاهما

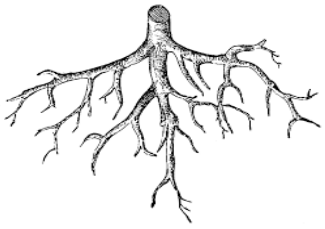


_____

_ _ _ _ _ _ _ _ _ _ _ _ _ _ _ _ _

_____

صلي الكلمة بالصورة التي تعبر عنها



جذور



ساق



مواد غذائية



أوراق

رتبي دورة حياة النبات بتسلسل بكتابة الأرقام من 1-4 في المكان المناسب:

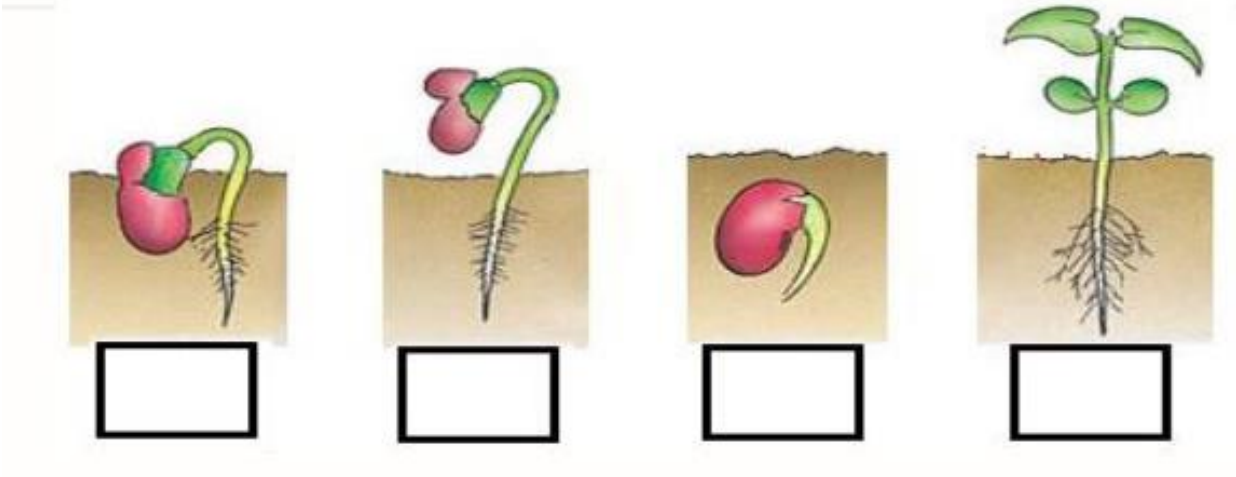

أي من النباتات التالية تعيش في الصحراء:





أي من النباتات التالية نباتات قطبية:





حوطي الإجابة الصحيحة

1. أي من الحيوانات التالية ليست من الحشرات؟





---

2. أي من الحيوانات التالية يتكون جسمها من ثلاث أجزاء؟





---

3. أي من الحيوانات التالية تضع البيض فقط؟





---

4. أي من الحيوانات التالية تلد فقط؟





صنفي الحيوانات التالية على حسب المجموعة


1


2


3


4

تلد	تبيض
.....	.....
.....	.....

صنفي الحيوانات التالية على حسب المجموعة


1


2


3


4

تتنفس بالرئتان	تتنفس بالخياشيم
.....	.....
.....	.....

صنفي الحيوانات الآتية بكتابة الرقم في المكان الصحيح وفق ما يغطي جسمها:



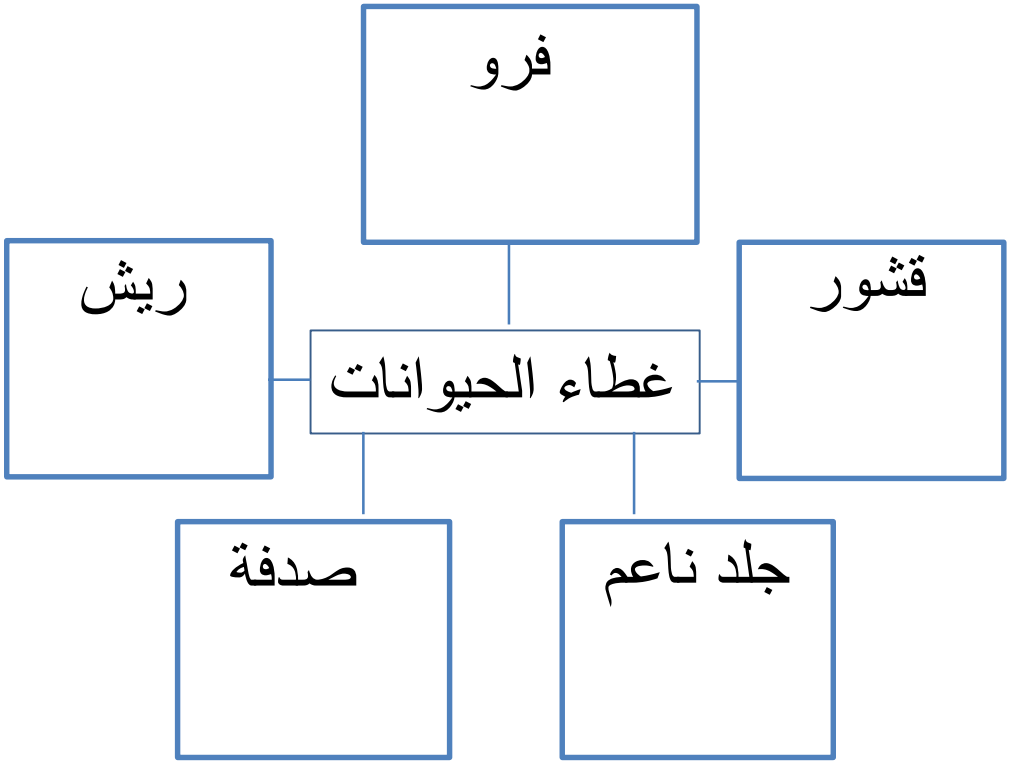

صلي بخط مستقيم بين الحيوان والمجموعة التي ينتمي لها:













الثَّدِييَّـاتُ

الطُّيُـورُ

الزَّوَاحِـفُ

البَرْمَائيَّاتُ

الأسْمَـاكُ

الحَشَـرَاتُ

انظري إلى هذه الصور.

أي مما يلي غير صحيح بخصوص الأسماك؟



1) تعيش في الماء.
2) لها رئتـان.
3) لها زعانف.
4) لها قشور.

أي مما يلي غير صحيح بخصوص الثدييـات؟



1) جسمها مغطاة بالشعر أو الفراء.
2) لها رئتـان.
3) تلد وتعتني بصغارها.
4) لها قشور.

أي مما يلي غير صحيح بخصوص البرمائيات؟



1) تعيش في الماء واليابسة.
2) لها ريش.
3) تنتقل إلى اليابسة عندما تكبر
4) لها جلد أملس ورطب

أجزاء الحاسوب

صلِ الكلمات التالية مع جزئها الصحيح فيما يلي

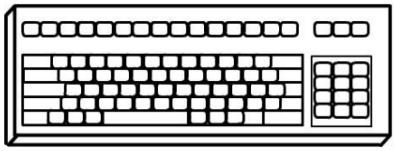

لوحة المفاتيح

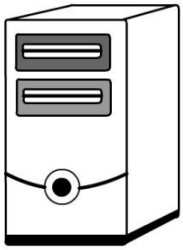

الفأرة



الطابعة



محرك الأقراص

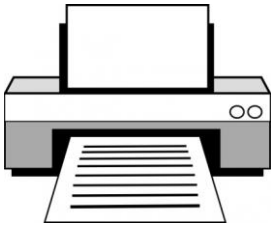

الشاشة