





مراجعة الفصل الدراسي الأول

مادة العلوم

للصف الثاني

ضع دائرة على رمز الإجابة الصحيحة :

1. ما الصورة التي تدل على المقارنة؟

A. 

B. 

C. 

2. ما الصورة التي تدل على القياس ؟

A. 

B. 

C. 

3. ما الصورة التي تدل على الملاحظة ؟

A. 

B. 

C. 

4. يتم تكرار التجربة ..... للتأكد من صحته النتائج

A. مرة واحدة B. 3 مرات C. 6 مرات

5. أي صورة تتشابه فيها الصفات الوراثية؟

A. 

B. 

C. 

إعداد المعلمة وفاء الليلي

6. أي صورة تتشابه فيها الصفات الوراثية؟

A. 

B. 

C. 

7. ما الذي ينتج غاز الأكسجين مع غذائه؟

A. 

B. 

C. 

8. تحتاج النباتات إلى .....لصنع غذائها

A . البحار B . الماء والعناصر الغذائية c . الجبال

9.ما النبات الذي أوراقه عريضة؟

A. 

B. 

C. 

10. ما الجزء الذي يمتص الماء والعناصر ؟

A. 

B. 

C. 

11. ما الجزء الذي ينقل الماء و لمواد الغذائية؟

A. 

B. 

C. 

12. ما الجزء الذي يصنع الغذاء للنبات ؟

A. 

B. 

C. 

13.....هي مواد موجودة في التربة تساعد على نمو النباتات لتنمو نمو سليما .

A . الأكسجين B . العناصر الغذائية C . التربة

14.ما النبات الذي يعيش في أماكن الجافه ؟

A. 

B. 

C. 

15. ما الذي توضحه هذه الصورة ؟

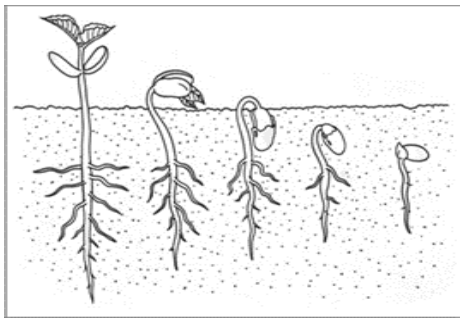

A . دورة حياة النبات

B . كيف ينتج النبات الأكسجين

C . كيف يصنع النبات الغذاء

16. احد هذه الصور ليست من احتياجات النبات ؟

A. 

B. 

C. 

17 . ما أوجه اختلاف النباتات عن غيرها من الكائنات الحية ؟.

A . تحتاج للهواء لكي تنمو.

B . تستخدم ضوء الشمس لتصنع غذائها

C . تحتاج إلى الماء لتبقى على قيد الحياة

18 . صل العبارة بالجزء المناسب للنبات :

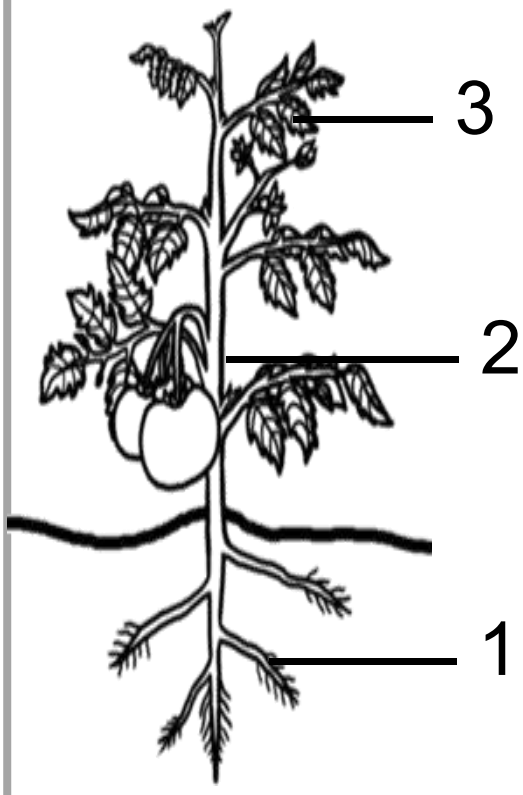

- الجذور تثبت النبات و تمتص الماء و العناصر الغذائية من التربة
- تستخدم الأوراق الهواء و ضوء الشمس لتصنع الغذاء
- تحمل الساق النبات وتسمح بمرور الماء و الغذاء لباقي أجزاء النبات

19 . حيوان يغطي جسمه جلد حرشفي خشن يساعده على حماية نفسة :

A . 

B . 

C . 

20 . حيوان تتنفس بالخياشيم :

A . 

B . 

C . 

21 . حوط الحيوان الذي يفقس من البيض :

A . 

B . 

C . 

22 . حوط الحيوان الذي لا ينتمي للفقاريات :

A . 

B . 

C . 

23 . أي مما يلي من الثديات :

A . 

B . 

C . 

24 . ما الحيوان الذي يفقس من بيض و يكسو جسمه الريش :

A . 

B . 

C . 

25 . ما الحيوان اللافقاري الذي لا يمتلك درع في جسمه:

A . 

B . 

C . 

26.ما عدد أرجل الحشرات :

A . 6 أرجل B . 8 أرجل C . 9 أرجل

27.تسمى طريقة نمو الحيوان و تغيره ب _____ .

A . دورة الحياة B . التكيف C . فترة الحياة

28.المدة التي يقضيها حيوان ما من ولادته إلى مماته ب _____ .

A . دورة الحياة B . التكيف C . فترة الحياة

29. _____ هو مظهر الحيوان و سلوكها .

A . دورة الحياة B . الفقاريات C . الصفة الوراثية

30 . أي مما يلي يوضح الترتيب الصيح لدورة حياة الضفدع ؟

A)

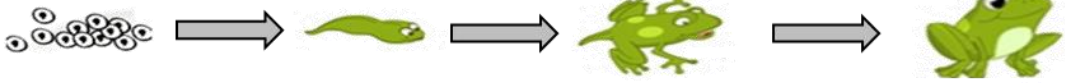

B)



C)

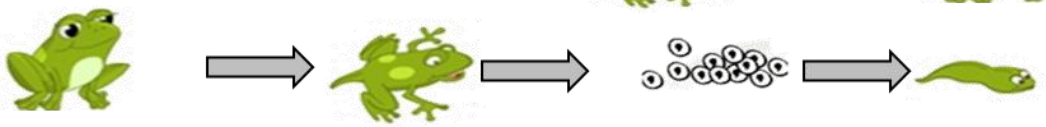

31 . تبدأ دورة حياة الباندا بـ ــــــــــــــ .

A .



B .



C .



34 . ــــــــ يمتزج الحيوان بالبيئة المحيطة به .



A . العيش ي مجموعة



B . التكيف



C . التمويه

33 . ــــــــ يتمثل في أحد أجزاء الجسم او طريقة تصرف الحيوان مما يساعده من البقاء على قيد الحياه .



A . العيش ي مجموعة



B . التكيف



C . التمويه

إعداد المعلمة وفاء الليلي

34 . ما الحيوان الذي يأكل الحشرات تحت الأرض ؟

A . 

B . 

C . 

35 . ما الحيوان الذي له عينان كبيرتان ليرى بالليل و أصابع طويله يحفر بها للحصول على الغذاء ؟

A . 

B . 

C . 

36 . تبدأ دورة حياة الطائر بـ ؟

A . 

B . 

C . 

37 . جزء من جسم السلحفاة تساعدها في حماية نفسها ؟ 

A . المخالب B . القوقعة C . الأسنان

38 . مكان تعيش فيه النباتات و الحيوانات معاً؟

A . السلسلة الغذائية B . المأوى C . الموطن البيئي

39 . تعبر الصورة التالية عن ؟



A . السلسلة الغذائية

B . المأوى

C . الموطن البيئي

40 . حوط الموطن البيئي البارد و الثلجي ؟

A . 

B . 

C . 

41 . حوط الموطن البيئي الحار و جاف ؟

A . 

B . 

C . 

42 . لماذا تهاجر الطيور في فصل الشتاء ؟

A . للحصول على الدفء

B . للحصول على البرودة

C . بسبب الجفاف

43 . أصبح حيوان خروف البحر ـــــــ؟



A . منقرض

B . مهدد بالانقراض

C . أحفورة

43 . يطلق على ما تبقى من كائن حي كان يعيش في الماضي اسم ؟



C . مهدد بالانقراض



B . أحفورة



A . مفترس

44 . يطلق على الغزال في الصورة التالية؟



A . منقرض

B . مفترس

C . فريسة

45 . يطلق على الأسد في الصورة التالية؟



A . منقرض

B . مفترس

C . فريسة

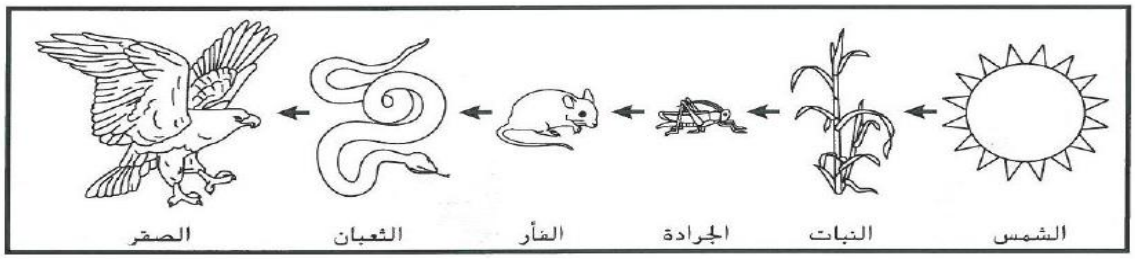

45 . ماذا يأكل الثعبان ؟

A . الفآر　　B . الصقر　　C . الجرادة

46 . رتب السلسلة الغذائية :







47 . رتب دورة حياة الطائر :






48 . رتب دورة حياة الضفدع :







أقرأ الجمل التالية ثم ضع (✓) أو (X)

1. من الطرق التي يمكن أن يغير الموطن البيئي هو الفيضانات فقط ( ) .
2. يتم تكرار التجربة ثلاث مرات للتأكد من صحة النتائج ( ) .
3. يمكن أن تنمو بذره دوار الشمس لتصبح نبتة دوار الشمسي. ( ) .
4. للزرافة رقبة طويلة تساعدها للوصول إلى الأشجار العالية ( ) .
5. تبدأ السلسلة الغذائية دائما بالشمس ( ) .
6. تستطيع الأسماك حماية نفسها من خلال السباحة في مجموعات كبيرة ( ) .
7. يستخدم العلماء المقارنة لتوضيح أوجه التشابه و الاختلاف بين الأشياء ( ) .
8. يصنع النبات الغذاء بنفسة ( ).
9. يمكن أن يتغذى الحيوان على أكثر من نوع ( ).
10. يطلق على سلسلتين أو أكثر من السلاسل الغذائية المرتبطة مع بعضها البعض بالشبكة الغذائية ( ) .
11. تبدأ السلاسل الغذائية بالمفترس ( ) .
12. لا تنمو النباتات ( ) .

أنظر إلى الشكل المجاور ثم أجب عما يلي :



1 . هل الشكل (سلسلة غذائية ام شبكة غذائية)

.....

2 . هل الشكل موجود على (الماء ام اليابسة)

.....

3 . ماذا يأكل الطائر (جرادة ام أفعى)

.....

4 . تبدأ السلسلة الغذائية بـ (النبات ام الشمس)

.....

5 . ما الحيوانات المفترسة في الشكل

..... و ..... و .....

صنف الحيوانات إلى فقاريات و اللافقاريات بكتابة الرقم في الجدول :



(1)



(2)



(3)



(4)



(5)



(6)

الفقاريات	اللافقاريات

صل بخط بين الجملة و المفردة المناسبة :

الجملة
حيوان يخرج سائلاً ذات رائحة كريه
حيوانات يغطي جسمها الفرو أو الشعر.
حيوانات تعيش في مجموعات كبيرة .
حيوانات تبدأ حياتها في الماء و ثم ينتقل إلى اليابسة
حيوان يدخل في سبات في فصل الشتاء

الحيوان
الأسماك
الضريبان
السلمندر
الزغبة
الثديات

بالتوفيق .. للجميع

إعداد المعلمة وفاء البليلي