الوحدة الأولى: كوكب الأرض

القارات والمحيطات

موقع بلادي.

السؤال الأول: أكمل الجمل الآتية بالكلمات المناسبة.

الكرة الأرضية – الفضاء – اليابسة – الماء – تعاقب – النهار – الشمس – القمر – الليل – الحركة السنوية - الفصول الأربعة – الربيع – الصيف – الخريف – الشتاء.

1- أنتم جميعا تعيشون على سطحي، وشكلي الأصلي يشبه الكرة لذلك سميت ب .....

2- يتكون سطح الأرض من ..... و.....

3- .....هو المكان الذي توجد يه الأرض والشمس والقمر.

4- أنا ..... وعمري 12 ساعة ويأتي معي وقت النوم والراحة.

5- ينتج عن دوران الأرض حول نفسها ..... الليل والنهار.

6- اذهب الى المدرسة في وقت .....

7- عندما تدور الأرض حول الشمس تنتج .....

8- انا انير الأرض ليلا .....

9- تسمى عملية دوران الأرض حول الشمس
ب.....

10- انا ..... أشكل المصدر الرئيس للحرارة.

11- فصول السنة أربعة وهي .....
و.....
و.....
و..... .



البحار – المحيطات – الخليج – المضيق – دائري – الأزرق – الكائنات الحية

شكلي .....

لون الماء هو اللون .....

تعيش على سطحي .....

المسطحات المائية على سطحي منوعة منها .....

..... و.....و.....



حدد على الخريطة موقع :المملكة العربية السعودية – الخليج العربي – سلطنةعمان

اختار الإجابة الصحيحة من بين الإجابات الآتية لكل جملة:

هو مسطح مائي كبير جدا من الماء المالح:

البحر ◯ المحيط ◯ الخليج ◯

هو مسطح مائي تحيط به اليابسة من ثلاث جهات:

الخليج ◯ النهر ◯ الجزيرة ◯

المخلوقات التي تعيش في البحار والمحيطات

الأسماك والكائنات الحية ◯ الانسان ◯ الإبل ◯

وسيلة النقل في البحار والمحيطات هي:

السيارات ◯ الدراجة ◯ السفن والقوارب ◯

هي مسطحات مائية أصغر من المحيطات

البحار ◯ القطب الجنوبي ◯ البئر ◯

أعلى قمة في العالم توجد في قارة أسيا هل هي:

جبل جيس ◯ إفرست ◯ الجبل الأخضر ◯

تعتبر أمريكا الجنوبية رابع قارة من حيث المساحة ويعيش عليها حيوان

اللاما ◯ البومة ◯ البطريق ◯

عدد القارات في العالم هو:

4 ◯ 5 ◯ 7 ◯

القارة البارة التي لا توجد بها سكان هي:

آسيا ◯ القطبية الجنوبية ◯ أوربا ◯

ضع علامة صح ✓ أمام العبارة الصحيحة وعلامة X أما العبارة الخاطئة.

يسمى القسم الذي يغطيه الماء على سطح الأرض بالغلاف المائي ( ).

تمثل اليابسة حوالي 71% من مساحة الكرة الأرضية ( ) .

المياه المالحة تمثل حوالي 97% من الغلاف المائي ( ).

الماء العذب هو الماء الذي لا يحتوي على ملح ( ).

الأنهار والبحيرات والبرك تعتبر من المياه العذبة( ).

الموقع الجغرافي هو موقع المكان على سطح الأرض( ).

تقع دولة الامارات العربية المتحدة في قلب الوطن العربي( ).

على امتداد الخليج العربي تقع دولة الامارات في الجهة الشرقية منه( ).

تعتبر المملكة العربية السعودية وسلطنة عمان من الدول المجاورة لدولة الامارات( ).

المحيط هو مسطح كبير جدا من الماء المالح وعددها خمس محيطات ( ).

المضيق هو ممر ضيق مائي يصل بين مسطحين مائيين كبيرين ( ).

إفرست هي أعلى قمة في العالم ( ) .

عدد قارات العالم هي 5 قارات ( )

العرقوب هو تل مرتفع من الرمال يقع بالصحراء ( ).

أول شهيد في دولة الامارات العربية المتحدة هو سالم سهيل ( ) .

أكتب المسميات الآتية في أماكنها الصحيحة .

قارة آسيا - قارة أوربا - قارة استراليا - قارة أمريكا الشمالية



يتكون سطح الأرض من يابسة وماء ويسمى القسم الذي تغطيه المياه الغلاف المائي والقسم الذي تغطيه اليابسة الغلاف الأرضي .

تغطي المياه القسم الأكبر من سطح الأرض ، وتوجد على شكل محيطات وبحار وخلجان وأنهار وبحيرات .

تمثل اليابسة حوالي 29%من مساحة الكرة الأرضية وتوجد على شكل قارات .

من خلال قرائتك للفقرة السابقة أجب على التالي :

ماهي مساحة اليابسة على الكرة الأرضية ؟

.....

ماهي النسبة الباقية من السطح الكرة الأرضية ؟

.....

ارسم الكرة الأرضية موضحا موضحا عليها النسبة المئوية لليابسة والماء

حدد على خريطة دولة الامارات

السهول الساحلية ـــ الجبال –وجزيرة الطنب الكبرى والطنب الصغرى وجزيرة أبو موسى .

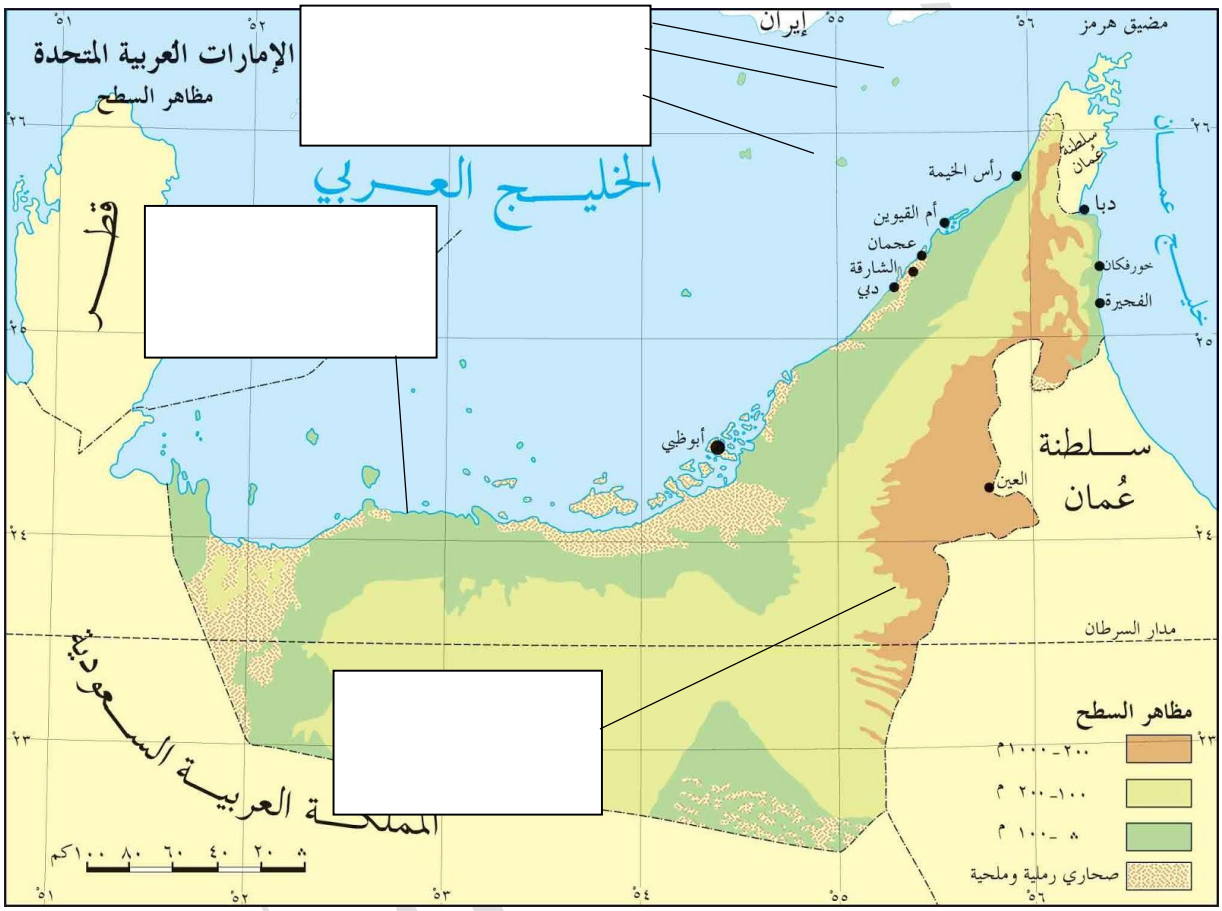

صل بين الكلمات والصورة المناسبة لها :

الخوص



الكاجوجة



الرحـــى



المـــهفة



حوط على الصورة التي تدل على الإجابة الصحيحة:

كان التعليم في دولة الامارات في الماضي يعتمد على:



الحاسوب



المطوعة

المواد الدراسية التي كانت تدرس في الكتاتيب قبل الاتحاد هي:



القرآن الكريم



اللغة الإنجليزية

كانت مهن الأجداد قديما في كسب الرزق تعتمد على :





التسوق الالكترونى

ضع الكلمة المناسبة من الكلمات الآتية لكل صورة من الصور التي أمامك

إنجازات العسكرية – إنجازات تعليمية – إنجازات صحية – إنجازات عمرانية









صل بين صورة الحاكم وبين الامارة التي يحكمها

دبـــي



أبوظبـــي



عجمـــان



الشارقـــة





رأس الخيمـــة



الفجيـــرة



أم القيـــوين

وكل فصل دراسي وأنتم في نفوق ونجاح

معلمتكم :أ.فاطمة موسى الطويل